بسم الله الرحمن الرحيم

کتاب پیژندنه

د کتاب نوم: اقتصادي رياضي

څانګه: بانکداري او د تجارت اقتصاد

مولف: محمد دهقانمل

ژباړن: عزت الله ځواب

د څار کمېټه:

- محمد آصف ننګ د تخنيکي او مسلکي زده کړو معين
- ديپلوم انجنير عبدالله کوزاېي د تعليمي نصاب رييس
- محمد اشرف وحدت په تعليمي نصاب کې د معينيت د مقام سلاکار

د علمي تصحيح کمېټه:

- عبدالجميل ممتاز
- محب الرحمن محب
- احمد فهيم سپين غر

د ګرافيک او ډيزاين څانګې مسئول : محمد جان عليرضايي

ګرافيک او ډيزاين: محمد سليم خان

چاپ کال: ۱۳۹۲ لمريز کال

تيراژ: ۱۵۰۰

چاپ ځل: لومړی

وېب پاڼه: www.dmtvet.gov.af

برېښنالیک: info@dmtvet.gov.af

کډ ISBN: ۹۷۸۹۹۳۶۳۰۰۵۹۰

Ketabton.com

د چاپ حق د تخنيکي او مسلکي زده کړو له معينيت سره خوندي دی

(c) ketabton.com: The Digital Library

ملي سرود

دا وطـــن افغانســـــتان دی
دا عـــــزت د هر افـــغان دی

کـــور د سولې کـــــور د تورې
هر بچـــــی یې قـــهرمان دی

دا وطـــن د ټولو کـــــور دی
د بلوڅـــــــو د ازبکـــــــو

د پـــښتون او هـــــزاره وو
د ترکمنـــــــو د تاجکـــــو

ور سره عـــرب، ګـــوجر دي
پامیـــــریان، نورستانیـــــان

بر اهـــوي دي، قـــزلباش دي
هم ایمـــاق، هم پـــــشه یان

دا هیـــواد به تل ځلیـــــږي
لکـــــه لمـــر پر شـــنه آسمان

په سیـــنه کې د آسیـــــا به
لکـــــه زړه وي جـــــاوېدان

نـــوم د حـــق مـــو دی رهـــبر
وایو الله اکبـــر وایو الله اکبـــر

(c) ketabton.com: The Digital Library

د پوهنې وزیر پېغام

ګرانو زده کوونکو، محصلانو او درنو ښوونکو!

د یوې ټولنې وده او پرمختګ کاملاً د همغې ټولنې د پیاوړو کاري کادرونو، بشري قوې او ماهرو فکرونو په کار او زیار پورې تړلي دي. همدا بشري قوه او کاري متې دي چې د هیواد انکشافي اهدافو ته د رسیدو لارې چارې طی کوي او د یوه نیکمرغه، مرفه او ودان افغانستان راتلونکی تضمینوي.

انسان په خپل وار سره د الله تعالی له جانبه او هم د خپل انساني فطرت له اړخه مؤظف او مکلف دی چې د ځمکې په عمران او د یوه سوکاله ژوند د اسبابو او ایجاباتو د تکمیل لپاره خپل اغیزمن نقش، همدارنګه ملي او اسلامي رسالت ادا کړي.

له همدې ځایه ده چې د یوه ژوندي او فعال انسان نقش، د خپل ژوند د چاپیریال او خپلې اړوندې ټولنې په اړه، تل مطلوب او په هیڅ حالت کې نه نفی کیږي او نه هم منقطع کیږي.

په ټول کې د پوهنې نظام او په خاصه توګه د تخنیکي او مسلکي زده کړو معینیت مسوولیت او مکلفیت لري چې د اسلامي ارزښتونو، احکامو او همداراز معقولو او مشروعو قوانینو ته په ژمنتیا سره، د افغانستان په انکشاف کې فعاله، چابکه او موثره ونډه واخلي، ځکه دغه ستر او سپیڅلي هدف ته د رسیدو په خاطر د انساني ظرفیت وده، د حرفوي، مسلکي او تخنیکي کادرونو روزنه او پراختیا یو اړین مقصد دی. همدا په تخنیکي او مسلکي زده کړو مزین تنکي ځوانان کولی شي چې په خپلې حرفې او هنر سره په سیستماتیک ډول د هیواد انکشاف محقق او میسر کړي.

جوته ده چې په افغانستان کې د ژوند تګ لاره، دولتداري او ټولنیز نظام د اسلام له سپیڅلو احکامو څخه الهام اخیستی، نو لازمه ده چې زموږ د ټولنې لپاره هر ډول پرمختګ او ترقي باید په علمي معیارونو داسې اساس او بنا شي؛ چې زموږ د کارګر نسل مادي او معنوي ودې ته پکې لومړیتوب ورکړ شي. د حرفوي ظرفیت جوړونې تر څنګ د ځوانانو سالم تربیت او په سوچه اسلامي روحیې د هغوی پالنه نه یوازې پخپل ذات کې یوه اساسي وجیبه ده، بلکې دا پالنه کولی شي چې زموږ وطن پخپلو پښو ودروي، له ضعف څخه یې وژغوري او د نورو له سیاسي او اقتصادي احتیاج څخه یې آزاد کړي.

زموږ ګران زده کوونکي، محصلان، درانه استادان او مربیون باید په بشپړه توګه پوه شي، چې د ودان او نیکمرغه افغانستان ارمان، یوازې او یوازې د دوی په پیاوړو متو، ویښ احساس او نه ستړي کیدونکي جد او جهد کې نغښتی او د همدغو مسلکي او تخنیکي زده کړو له امله کیدای شي په ډیرو برخو کې د افغانستان انکشافي اهداف تر لاسه شي.

د دې نصاب له ټولو لیکوالانو، مولفینو، ژباړونکو، سموونکو او تدقیق کوونکو څخه د امتنان تر څنګ، په دې بهیر کې د ټولو کورنیو او بهرنیو همکارانو له مؤثرې ونډې او مرستو څخه د زړه له کومې مننه کوم. له درنو او پیاوړو استادانو څخه رجامندانه هیله کوم چې د دې نصاب په ګټور تدریس او فعاله تدریب سره دې د زړه په ټول خلوص، صمیمي هڅو او وجداني پیکار خپل ملي او اسلامي نقش ادا کړي.
د نیکمرغه، مرفه، پرمختللي او ویاړمن افغانستان په هیله

فاروق وردګ
د افغانستان د اسلامي جمهوریت د پوهنې وزیر

(c) ketabton.com: The Digital Library

لړلیک

څپرکي	سرلیکونه	پاڼې
لومړی	د توابعو لمټ او د هغو اهمیت	۱-۲۸
دویم	مشتق	۲۹-۵٤
دریم	قسمي، ترکیبي او کلي مشتق نیونه	۵۵-۷۲
	سرچینې او اخیستنې	۷۳
	د ښوونیز نصاب د پراختیا د ریاست پیغام	۷٤

(c) ketabton.com: The Digital Library

مقدمه

اقتصادي رياضي د بانکداری، اقتصاد او تجارت د څانګې د مهمو او اساسي مضامینو له ډلې څخه ده، چې محصلین یې په زده کولو سره د بانکي محاسبو او د تجارت د اقتصاد لپاره اړین مهارتونه ترلاسه کولای شي.

په لومړي څپرکي کې د توابعو لمټ، لمټ او په مسلکي برخو کې د هغو د کارولو په اړه توضیحات وړاندې شوي دي. په دویم څپرکي کې بیا مشتق، د مشتق ډولونه، د هغو اړوندې قاعدې او اړوند تمرینات له پوره شننې سره ځای پرځای شوي دي.

په دریم څپرکي کې د قسمي، ترکیبي او کلي مشتق نیونې په اړه توضیحات او تشریحات وړاندې شوي دي. د څپرکي د موضوعاتو د نچوړ تمرینونه راوړل شوي، چې د یادو تمرینونو حل د محصلینو لپاره د درس په ښه درک کې مهمه مرسته کولای شي.

هیلمن یم د دې ټولګې په چاپ سره د دې برخې د استادانو د ستونزو یوه برخه حل شي او د درنو استادانو او ګرانو محصلینو لپاره اړینې اسانتیاوې منځ ته راوړي.

په درناوي

محمد دهقان مل

(c) ketabton.com: The Digital Library

د کتاب ټولیزه موخه

په محاسبوي چارو کې اړین مهارتونه ترلاسه کول او د اقتصادي ریاضي د اړوندو مسایلو حل؛ څو له قاعدو سره سم د تولید، صنعت او احصایې په برخو کې ترې ګټه واخستل شي او د انسان ورځنی ژوند ورباندې هوسا شي.

(c) ketabton.com: The Digital Library

لومړی څپرکی

د توابعو لمټ او د هغو اهمیت

ټولیزه موخه

لوستونکي کولای شي د توابعو د لمټ اساسي مفهوم، د هغې اصول او قواعد درک کړي، لازم مهارتونه په کار یوسي، کولای شي مسایل حل کړي او د ټولنیز ژوند په ټولو ساحوکې یې د ګټې اخېستو وړ وګرځي.

د زده کړې موخې: د دې څپرکي له پای ته رسولو سره لوستونکي کولای شي:

۱- د لمټ مفهوم په اساسي بڼه درک کړي.

۲- لمټ تعریف کړي او د هغو په قوانینو پوه شي.

۳- دا $\frac{0}{0}$، $\frac{\infty}{\infty}$، $0-\infty$ $\infty-\infty$ لمټونه محاسبه کړای شي.

٤- د مثلثاتي توابعو لمټ تعریف او د هغو سوالونه په سمه توګه حل کړي.

د لمټ اساسي مفهوم

انتروال! په لغت کې فاصلې ته وايي، د رياضي په اصطلاح کې د دوو مختلفو عددونو ترمنځ فاصلې ته انتروال وايي. انتر وال په درې ډوله دی:

۱. تړلی انتروال

۲. نیم پرانیستی انتروال

۳. پرانیستی انتروال

۱. تړلی انتروال: هغه انتر وال دی، چې د دوه نقطو د انجام درلودونکی وي.

لکه [2 ,8] لوی قوس د تړلي قوس علامه راښيي.

د فورمول په شکل يې دارنګه نوشته کولای شو. $[\ xEIR: 2 \le x \le 8x]$

(c) ketabton.com: The Digital Library

په لاندې شکل ښودل کېږي، لکه (۱) شکل

(۱)شکل

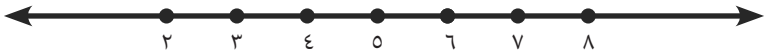

۲- نیم خلاص انتروال یا نیم تړلی انتروال: هغه انتروال دی، چې یو انجام په کې داخل او بل پکې نه وي لکه.[2,8 ،) (2,8] کوچنی قوس د خلاص والي علامه راښيي او لوی قوس د تړل کېدو علامه راښيي.

$A = [\ x \in IR / 2 > x < 8]$

یعنې

$B = [\ x \in IR / 2 \leq x < 8]$

(۲) شکل

(۳) شکل

۳- خلاص انتروال: هغه انتروال دی، چې د نقطو انجام په کې شامل نه وي.

مثال (3,1) یعنې $P = [\ x \in IR : 3 < x < 11]$

د یوې تابع حد یا د یوې تابع لمټ

مجاورت: هر خلاص انتروال د خپلو شاملو عناصرو مجاورت وي، لکه(2,8)

یو خلاص انتروال دی، چې له ۳ تر ۷ عناصر په هغه کې شامل دي او(2,8) انتروال د دې ټولو عناصرو مجاورت دی.

متناظر مجاورت: هر خلاص انتروال د خپل ځان وسطي متناظر مجاور وي، لکه(2,8) انتروال چې د متناظر مجاورت نقطه یې (۵) ده، باید وویل شي، چې د مجاورتونو هره نقطه

(c) ketabton.com: The Digital Library

ډېر متناظرونه لري.
که (b,a) د x عدد یو مجاورت وي، داسې چې x د (b,a) وسطي نقطه راښيي. دا چې (b,a) د x د متناظر مجاورت په نوم یادېږي.
مثلاً $(0,2)$ چې متناظر مجاورت د هغه دی، د r د هر مثبت عدد لپاره $(c-r,+r,(r)0)$ د C یو مجاورت وي (٤ شکل)

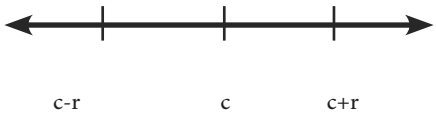

(٤) شکل

مخکې له دې چې لمټ (حد) تعریف کړو، هغه د مثالونو په واسطه واضح کوو او په (٦) شکل کې د ABC مثلث په نظر کې نیسو.

چې قاعده یې a=6cm او ارتفاع یې h=5cm او مساحت یې په F ښایو، لرو چې

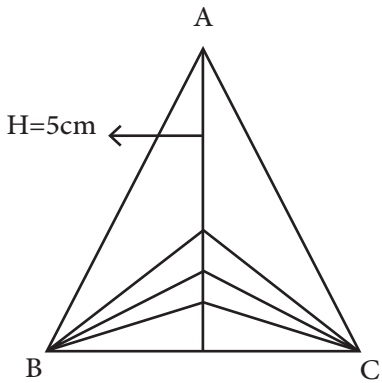

$$f = a.h.\frac{1}{2}$$

(٥) شکل

$F = \frac{1}{2}.6.5 = 15cm$ که قاعده ثابته وساتو او ارتفاع ته یې تغیر ورکړو؛ نو مساحت یې هم تغیر کوي او د h تابع دی، یعنې $F(h) = \frac{1}{2}6.h$ چې په لاندې جدول کې د h او $F(h)$ ځینې قیمتونه ښودل شوي.

h	5	3	1	0,5	0,2	0,1	0,02	0,001
F(h)	15	9	3	1,5	0,6	0,3	0,06	0,003

(c) ketabton.com: The Digital Library

له پورته جدول څخه معلومېږي، چې دh په کمېدو F(h) هم کمېږي. هغه وخت چې h او د F(h)مساحت صفر ته نيږدې کېږي F(h) هم صفر ته تقرب کوي. په دې حالت کې ويلای شو چې دF(h) صفر دی او په رياضي کې يې په لاندې شکل ليکو:

$$\lim_{x\to 0} f(x) = 0$$

مثال: د $f(x) = x^2$ تابع په نظر کې نيسو،کله چې 2⟵x ته نيږدې کېږي f(h) کوم قيمت ته تقرب کوي.

x	1	1,5	1,9	1,99	1,99	1,999	-2-	2,001	2,01	2,02	2,1	2,5	3
F(x)	1	2,25	3,61	3,9601	3,980025	3,996001	- 4-	4,004001	4,04401	4,0804	4,41	6,25	9

په پورته جدول کې ليدل کېږي، کله چې x د 2 خواته نيږدې کېږي F(x) د 4 خواته تقرب کوي.

يعنې

$$\lim_{n\to 2} f(x) = \lim_{n\to 2} x^2 = 4$$

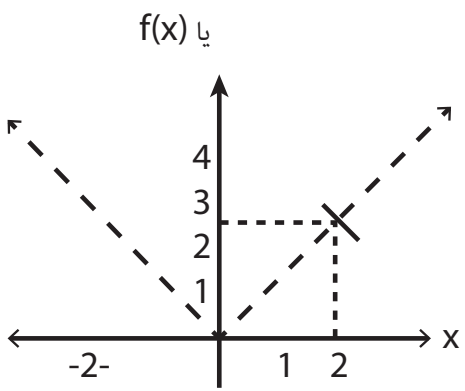

شکل (6)

(c) ketabton.com: The Digital Library

په پورته مثال کې لیدل کېږي، چې د توابعو د لمټ د پیدا کولو لپاره په یو a کې د ذکر شوې نقطې په یوه مناسب مجاورت کې د تابع وضعیت مطالعه شو او مطلوب لمټ پیدا شو.

که دې لمټ ته د عمومي لمټ نوم ورکړو، لیکلی شو چې: $\lim_{x\to a} f(x)=b$

د b عدد د f د یوې تابع لمټ د a په نقطه کې یادېږي. که د N د هر مجاورت لپاره د b نقطه د D یومجاورت د a نقطه د f د تعریف په ناحیه کې موجود وي او د هر x لپاره عنصر له D د f(x) عنصرله N وي. یعنې $\lim_{x\to a} f(x)=b$ باید ووایو حتمي نه ده، چې a په n ⟶ a د تعریف په ناحیه کې F شامل وي.

د توابعو لمټ

لمټ د تحول د اندازې د ټاکلو د نهایي قیمتونو او یا د توابعو له مخې مهم وي. د معاصرې ریاضي عمومي مسایل له پخوا نه مشتق، سلسلې او نور له لمټ نه په ګټه اخیستو تعریف او توضیح کېږي.

د تحول تقرب (په یوه نقطه کې د یوې تابع ښي او کیڼ حد ته) ویل کېږي، چې x متحول د a ټاکلي عدد ته تقرب کوي، که چېرې په خپل زړه a ته نیږدې کېدای شي. یعنې د x او a تر منځ تفاوت له دواړو عددونو څخه کوچنی 0<8 تر ټولو کوچنی شي. پورته مفهوم په سمبولیک شکل دارنګه لیکل کېږي. $8>0:|x-a|\angle 8$

Lim x=a یا x ⟶ a یا | x-a | ⟶ 0

له ښی خوا د متحول تقرب ($x\to a^{+}$) که په یو متناقص تصاعدکې دx قیمتونه شتون ولري، داسې چې تدریجاً څومره یې چې زړه وغواړي a ته نیږدې شي، لکه:

$x\to a^{+}$ X: a+0, 1, a+0,01, a+0,001, a+0, 0001,…….

له کینې خوا د متحول تقرب ($x\to a^{-}$) که چېرې متزاید تصاعد کې د x قیمتونه ټاکل کېدای شي، داسې چې تدریجاً په خپل زړه a ته نیږدې شي. دا رنګه

$x\to a^{-}$ X: a-0,1, a-0,01a-0,001,a-0,0001,……

باید وویل شي، چې د x متحول تقرب a عدد ته معادل دی، دواړو خواوو (ښي او کیڼ) ته له تقرب سره($x\to a \Leftrightarrow (x\to a^{+}, x\to a^{-})$

(c) ketabton.com: The Digital Library

مثال:

وښيئ چې $\lim_{x\to 3}(4x+8)=20$

حل: د اختياري عدد لپاره $\in>0$ (ابتسيلون) قبلوو، چې $|(4X+8)-20|\angle\in$ وي $\delta>0$ عدد تعينوو.

$|(4X+8)-20|\angle\in\Rightarrow|4X-12|<\in\Rightarrow$ دواړه خواوې په 4 تقسيموو چې

$\frac{4|X-3|}{4}<\in/4\Rightarrow|X-3|\in/4 \qquad \Rightarrow 4|X-3|<\in$

نو د $\delta=\in/4$ لپاره لرو، چې

$\Rightarrow 4|1-3|<\in\Rightarrow 4x-12<\in \quad |x-3|<\delta\Rightarrow|x-3| \quad <\in/4$

د 8 عدد جمع او منفي کوو $4x+8-8-12<\in$

$|(4x+8)-20|<\in\Rightarrow Lim(4x+8)=20$ x 3

دويم مثال: د x متحول د 4 عدد ته تقرب کړی، دا $x\to 4$ مفهوم توضيح کړئ!

x:4,1 ,4,01,4,001,4,0001..... 4^+

حل

x:3,9 ,3,99 ,3,999,3,9999..... 4^-

په پای کې بايد ووايو، چې $x\to 4$

د تابع لمټ

هر کله چې د f(x) تابع په يوه خلاص انتروال کې، چې د a عدد په هغې کې شامل دی. تعريف شوی وي د x متحول a ته په تقرب f(x) په خپله خوښه L عدد ته نيږدې شي، ويلای شو چې د f(x) تابع لمټ عبارت له Lڅخه دی.کله چې x، a تقرب وکړي، په لاندې شکل ليکو چې

$\lim_{x\to a} f(x)=$ يا $1 f(x)_{x\to a}=1$

د لمټ تعريف:

د f(x) تابع د L عدد سره مساوي دی، کله چې $a\to x$ ته تقرب کړي.

که $\in>0,\delta>0:|x-a|<f\Rightarrow|F(x)-L|<\in$

(c) ketabton.com: The Digital Library

دا چې:

$$\in > 0, \delta > : a - \delta < x < a + f \Rightarrow l - \in < f(x) < l + \in$$

$$\in > 0, \delta > 0 : x \in (x - f, x + f) = f(x) \in (l - \in, l + \in)$$

یا پورته تعریف په لاندې شکل لیکل کېدای شي.

$$\lim_{x \to a} f(x) = I \Leftrightarrow (|x - a| \to 0 \Rightarrow |f(x) - L| \to 0)$$

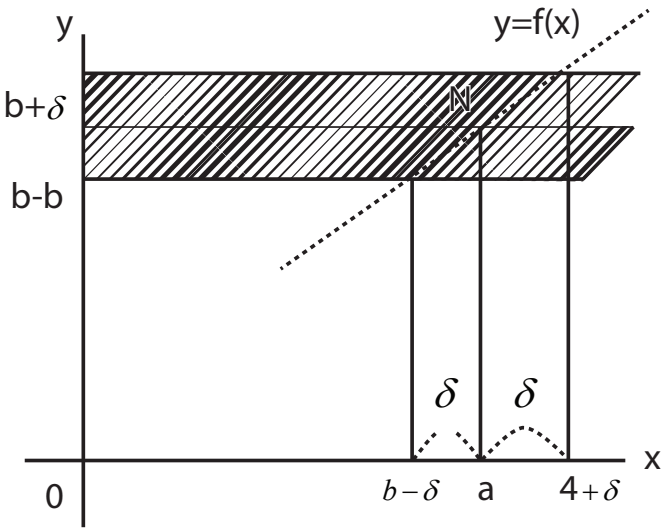

(۷) شکل

ښي او کيڼ لمټونه

۱: د f(x) تابع د a په عدد کې د ښي لمټ لرونکې L_1 ده، که د هر $\in > 0$ لپاره د $\delta > 0$ کوچنی عدد شتون ولري، داسې چې

$$x \in (a, a + \delta) \Rightarrow f(x) \in (L1 - \in, L1 + \in)$$

$$\lim_{x \to a} f(x) = l_1 \quad \text{يا} \quad \lim_{x \to a^+} f(x) = 1$$

2 f(x) د تابع په a کې د کيڼ L_2 لرونکې ده، چې د هر $\in > 0$ لپاره د $\delta > 0$ يوعدد شتون لري، داسې چې.

(c) ketabton.com: The Digital Library

$$x \in (a-\delta-a) \Rightarrow f(x) \quad (L2-\in, L2+\in)$$

او یایې په سمبولیک شکل لیکو چې

$$\lim_{\substack{x\to a \\ x\langle 2}} f(x) = l_2 \lim_{x\to a^-} f(x) = l_2$$

۳- د f(x) تابع هغه وخت چې $x \to a$ د L لمټ لرونکی وي.
$\lim_{x\to a} f(x) = L$ په دې شرط چې $\lim_{x\to a^-} f(x) = L = \lim_{x\to a^+} f(x)$

باید وویل شي هغه وخت، چې د یوې تابع ښي او کیڼ لیمټونه له یو بل سره مساوي نه وي د لمټ لرونکي نه ده.

مثال:- وښایه چې $\lim_{x\to 3} \frac{x^2}{x-3} - 9 = 6$

حل: فرضوو چې $\in > 0$ یو عدد δ موجود وي، داسې چې.

$$\left| \frac{x^2}{x-3} - 6 \right| < \in$$

دا چې $|x-3| < \delta$ وي، د δ اندازه د $\in$ له جنس څخه پیدا کوو.

$$|x+3-6| < \in \Rightarrow |x-6| < \in \qquad \left| \frac{(x-3)(x+3)}{x-3} \right| - 6 < \in$$

که $\delta = \in$ وي په نتیجه کې $|x-3|$ دی.

(c) ketabton.com: The Digital Library

مثال: ثابت کړئ، چې $\lim_{x\to 5}(4x-3)=17$ دی.

حل: د هر متناظر مجاورت $(\in 2,\in 1)$ لري که چېرې $\in$ یو مثبت عدد $\in>0$ دی: د $(17-\in,17+\in)$ مجاورت لپاره $(\in 2,\in 1)$

باید $D=(a_1,a_2)$ مجاورت د 5 د عدد $(5\in D)$ پیدا کړو، داسې چې د هر x لپاره له D یا L f(x)=4x-3 په N کې شامل وي، یعنې

$$17\in\langle 4x-3\langle \quad 17+\in$$

$$20 \quad \in\langle 4x\langle 20+\in$$

دواړه خواوې په 4 تقسیموو $\frac{5.\in}{4}<x<5\frac{5+\in}{4}$

نو د $\frac{5.\in}{4}<x<5\frac{5+\in}{4}$ لپاره او همدارنګه $17-\in<4x-3<17+3$ صدق کوي.

نو $D=\frac{5.\in}{4}<x<5\frac{5+\in}{4}$ په نتیجه کې د هر x لپاره له D څخه f(x) په N کې شامل دی او که $\in=\frac{1}{2}$ فرض شي.

$$N=\left(17-\frac{1}{8},17+\frac{1}{8}\right)=(16.5.\quad 19.5)\quad D=\left(5-\frac{1}{8},5+\frac{1}{8}\right)=(4.875.5.125)$$

د یوې تابع لمټ ته راجع قضیې

لومړۍ قضیه: په عمومي ډول د هرې خطي تابع لرو چې $f(x)=mx+b$

$$\lim_{x\to a}(mx+b)=ma+b$$

دویمه قضیه: که $m=0$ وي د $f(x)=mx+b$ خطي تابع لاندې شکل اختیاروي. دې $f(x)=b$ تابع ته ثابته تابع وایي، چې لمټ یې په a کې له b سره مساوي دی. \

$$\lim_{x\to a} f(x)=\lim_{x\to a} b=b$$

دریمه قضیه: که په خطي تابع کې $b=0$ وي او $m=1$ وي $f(x)=x$ تابع کېږي، دې ته د لمټ تابع ویل کېږي. د تابع لمټ د a په نقطه کې عبارت له a څخه دی

(c) ketabton.com: The Digital Library

$$\lim_{x\to a} mx = ma \Rightarrow m = 1 \Rightarrow \lim_{x\to a} f(x) = \lim_{x\to a} x = a$$

څلورمه قضیه: که د g.f توابع د a په نقطه کې لمټ ولري، لاندې قضیې صدق کوي.

$$\lim_{x\to a} f(x) = b \qquad \lim_{x\to a} g(x) = c$$

د توابعو د جمعې د حاصل لمټ له مجموعي لمټونوسره مساوي دی.

$$\lim_{x\to a}(f+g)(x) = \lim_{x\to a} f(x) + \lim_{x\to a} g(x) = b + c$$

$$\lim_{x\to a}(f-g)(x) = \lim_{x\to a} f(x) - \lim(g(x) = b - c$$

پنځمه قضیه: په یوه نقطه کې د ضرب د حاصل لمټ مساوي دی په یوه نقطه کې د لیمټونو له ضرب سره

$$\lim_{x\to a}(f.g)(x) = \lim_{x\to a} f(x).\lim_{x\to a} g(x) = b.c$$

شپږمه قضیه: په یوه نقطه د خارج قسمت لمټ مساوي دی، د خارج قسمت لمټ د لمټونو په هغه نقطه کې په دې شرط چې $\lim_{x\to a} g(x) \neq 0$ وي

$$\lim_{x\to a} f(x)$$

$$\lim_{a\to x}\left(\frac{f}{g}\right)(x) = \frac{\lim_{x\to a} f(x)}{\lim_{x\to a} g(x)} = \frac{b}{a}$$

اووه قضیه: که لمټ $\lim_{x\to a} f(x) = b$ او μ یو ثابت عدد وي، د تابع لمټ په هغه نقطه کې ضرب ثابت عدد دی.

$$\lim_{x\to a}(\mu f(x)) = \mu.\lim_{x\to a} f(x) = \mu.b$$

اته قضیه: د یوې جذري تابع لمټ په یوه نقطه کې مساوي د لمټ د جذر د هغه تابع په هغه نقطه کې که $\lim_{x\to a} f(x) = b$ وي یعنې

$$\lim_{x\to a} \sqrt[\eta]{f(x)} = \sqrt[\eta]{\lim_{x\to a}(f(x)} = \sqrt[\eta]{b}$$

که چېرې $\sqrt[\eta]{b}$ موجود وي.

(c) ketabton.com: The Digital Library

مثال: د $\lim\limits_{x\leftarrow 4}\sqrt{x+5}$ لمټ پیدا کړئ!

$$Lim\sqrt{x+5}=\sqrt{Lim(x+5)}=\sqrt{4+5}=\sqrt{9}=3$$

نهمه قضیه: که $Lim\frac{x^n-a^n}{x-a}=n_a^{n-1}$ وي نظر د مطابقتونو قانون ته لرو:

$$\lim_{x\to a} x^n-a^n=\lim_{x\to a}(x-a)(x^{n-1}+x^{n-2}\cdot a+x^{n-3}\cdot a^2+.....+a^{n-1}$$
$$\Rightarrow \lim_{x\to a}(a^{n-1}+a^{n-2}\cdot a+a^{n-3}\cdot a^2+....+a^{n-1}$$
$$\Rightarrow \lim_{x\to a}(a^{n-1}+a^{n-2}+a^{n-3}\cdot a+a^{n-3}+a^2.....+a^{n-1}=a^{n-1}$$
$$\Rightarrow \lim_{x\to a}(a^{n-1}+a^{n-1}+a^{n-1}\cdot a+a^{n-1}+.....+a^{n-1}=n_a^{n-1}$$
$$\Rightarrow \lim_{x\to a}\frac{x^n-a^n}{x-a}=n_a^{n-1}$$

مثال: د $\lim\limits_{x\to 5}\frac{x^5-2^5}{x-2}$ پیداکړئ

حل: فورمول ته په کتو لرو، چې: $\lim\limits_{n\to a}\frac{x^n-a^n}{x-a}=na^{n-1}$

$$\lim_{x\to a}\frac{x^5-2^5}{x-a}=5.2^4=80$$

مثال: $\lim\limits_{x\to a}(x^3+5x^2-3x+7)$ پیداکړئ، که چېرې $x\to a$ ته تقرب وکړي

$$\lim_{x\to a}(x^a+5x^2-3x+7)=2^2+5\cdot 2^2-3\cdot 2+7$$
$$=8+20-6+7=29$$

(c) ketabton.com: The Digital Library

مثال: لاندې لمټ پیدا کړئ $\lim\limits_{x\to a}\dfrac{5x^3-6x^2-6x+2}{2x^2+3x-12}$

حل:

$$f(x)=5x^3+6x^2-6x+2$$
$$g(x)=2x^2-3x-12$$
$$\lim_{x\to a} f(x)=f(2)$$
$$\lim_{x\to 2} \quad g(x)=g(2)$$
$$\lim_{x\to a}\frac{f(x)}{2(x)}=\frac{\lim\limits_{x\to 2} f(x)}{\lim\limits_{x\to 2} g(x)}=\frac{f(2)}{g(2)}=$$
$$\Rightarrow \frac{5\cdot(2^3)-6(2^3)-6.2+}{2.(2^2)+3.2-12}=\frac{40-24-12+2}{8+6-12}=\frac{6}{2}$$
$$\Rightarrow \lim_{x\to 2}\frac{5x^3-6x^2-6x+2}{2x^2+3x-12}=3$$

مثال: $\lim\limits_{x\to 2}\dfrac{x^2-9}{x-3}=6$ وي، ثبوت کړئ.

حل: فرض کوو چې $\in>0$ د δ عدد موجود دی داسې چې

$$\left|\frac{x^2-9}{x-3}-6\right|\angle\in$$

کله چې $|x-3|<\in$ وي، د δ اندازه د $\in$ له جنسه لاسته راوړو

$$\left|\frac{(x-3)(x+3)}{x-3}-6\right|\angle\in$$
$$\Rightarrow x+3-6\angle\in\Rightarrow|x-3|\angle\in$$

داسې چې δ مساوي دی له $\in$ سره، اوس د $|x-3|\angle\delta=x^2-9|\ -6\ |\angle\in$ لپاره

(c) ketabton.com: The Digital Library

$$\Rightarrow \lim_{x\to 3}\frac{x^2-9}{x-3}=6 \Rightarrow \lim_{x\to 3}\frac{(x-3)(x+3)}{x-3}=6$$
$$\Rightarrow x+3=6 \Rightarrow 3+3=6 \Rightarrow 6=6$$

مثال: $\lim_{x\to 3}\left(x^3-3x+2/x\right)$ پیداکړئ.

حل:

$$F(x)=\left(x^2-3x+2/x\right) \Rightarrow F(x)=\frac{x^3-3x^2+2}{x}$$
$$\Rightarrow F(x)=\frac{g(x)}{h(x)} \Rightarrow \lim_{x\to 3}F(x)=\lim_{x\to 3}\frac{x-3}{\lim h(x)}$$
$$=\frac{g(3)}{h(3)}=\frac{(3^3)-3(3^2)+2}{3}=\frac{27-27+2}{3}=\frac{2}{3}$$

مثال: $\lim_{x\to 4}\frac{x^2-16}{x-4}$ پیداکړئ.

حل: $f(x)$ یو ه ناطقه تابع ده، یعنې $f(x)=\frac{x^2-16}{x-4}$

دا چې $x\to 4$ صفر کېږي ا و 4 د f د تعریف په ناحیه کې شامل نه دی او $x\neq 4$ لاسته یې راوړو.

$$\lim_{x\to 4}F(x)=\lim_{x\to 4}\frac{x^2-16}{x-4}=\lim_{x\to 4}\frac{(x-3)(x+4)}{x-4}$$
$$\Rightarrow \lim_{x\to 4}(x+4)=4+4=8$$

بې نهایت د تابع د لمټ په حیث

ویل کېږي، چې $\lim_{x\to 4}f(x)=\alpha$ که د خپلې خوښې Mڅخه لوی د هر عدد لپاره د δ مثبت پیدا شوی وي، داسې چې له $|x-a|<\in$ غیر مساوات څخه $|x-a|<\in$ غیر مساوات په لاس راځي لکه $\lim_{x\to 4}(x)=\alpha \Rightarrow M>0,\delta>0$ داسې چې $|x-a|<\delta \Rightarrow |F(x)|>M$ دلته دې شکل ته اوړي.

(c) ketabton.com: The Digital Library

۱- هر کله چې f(x)>M وي $\lim_{x\to 4} f(x)=a$ دی.

۲- هر کله چې f(x)>M وي $\lim_{x\to 4} f(x)=-a$ دی

مثال: پیدا کړئ چې $\lim_{x\to a}\frac{2x+1}{x}=2$ دی

حل: د $\in>0$ عدد لپاره فرض کوو، چې $\left|\frac{2x+1}{x}-2\right|<\in$

$$\Rightarrow\left|\frac{2x}{x}+\frac{1}{x}-2\right|<\in\Rightarrow\left|2+\frac{1}{x}-\right|<\in$$

$$=\left|\frac{1}{x}\right|<\in\Rightarrow x>\frac{1}{\in}$$

که د $N=\frac{1}{\in}$ لپاره شرط دی $\lim_{x\leftarrow a}\frac{2x+1}{x}=2$ سم دی.

مثال: $\lim_{x\leftarrow a}\frac{x^2+2x}{x^2}$ محاسبه کړئ.

حل:

$$\lim_{x\to a}\frac{x^2}{x^2}=\lim_{x\to a}\frac{x^2(1+\frac{2}{x})}{x^2}=\lim_{x\to a}\left(1+\frac{2}{x}\right)$$

$$\lim_{x\to a}1+\lim_{x\to a}(\frac{2}{x})=1+0=1$$

مثال: په داسې حال کې چې $\lim_{x\to a} f(x)=\alpha$, $\lim_{x\to a}2(x)=\alpha$ پیداکړئ.

یعنې: $\lim_{x\to 1}\frac{1}{1-x^2}=\infty$ ، $\lim_{x\to 1}\frac{x}{1-x}=\infty$ وي.

حل:

$$\lim_{x\to 1}\frac{f(x)}{g(x)}=\lim_{x\to 1}\frac{\frac{1}{1-x^2}}{\frac{x}{1-x}}\Rightarrow\lim_{x\to 1}\frac{1}{1+x^2}\cdot\frac{1-x}{x}$$

$$=\lim_{x\to 1}\frac{1}{(1-x)(1+x)}\cdot\frac{1-x}{x}=\lim_{x\to 1}\frac{1}{x+x^2}=\frac{1}{1+1}=\frac{1}{2}$$

(c) ketabton.com: The Digital Library

که $F(x) = \lim_{x\to 1} \frac{x}{1-x}$ وي او $2(x) = \lim_{x\to 1} = \lim_{x\to 1} \frac{1}{1-x^2}$ وي داسې حل کېږي.

$$\lim_{x\to 1} \frac{f(x)}{2(x)} = \lim_{x\to 1} \frac{x/1 - x}{\frac{1}{1-x^2}} = \lim_{x\to 1} \frac{x}{1-x} \cdot 1 - x^2$$

$$\lim_{x\leftarrow 1} x(1+x) = 1+1 = 2$$

مثال: $\lim_{x\to a}(2-x^2) = -a, \lim_{x\to 1}(x^2+5) = a$

$$\Rightarrow \lim_{x\to a}\left[\left(x^2+5\right)+\left(2-x^2\right)\right] = \lim_{x\to a}(5+2) = 7$$

د لمټ محاسبه او ځينې مبهم حالات

د لمټونو په محاسبه کې د ضرب د حاصل مجموعه او ځينې وخت د توابعو نسبت د مبهمو شکلونو $\frac{0}{0}, \frac{\infty}{\infty}, 0-\infty, \infty-\infty$ سره مخامخ کېږو، چې ځينې حالتونه يې په لاندې ډول دي.

۱- په $\frac{0}{0}$ حالت کې: که $\lim_{x\to a} \frac{f(x)}{g(x)}$ $\frac{0}{0}$ ولرو، داسې چې F(x) ، g(x) پولينومي توابع وي، په صورت او مخرج کې يې مشترک فکتور (x-a) دی.
او په بعضو حالاتو کې کېدای شي مضاعف او يا څو ځلي وي.

لومړی مثال-

$$\lim_{x\to 2} \frac{x^2-2}{x^2-4x+4} = \lim_{x\to 2} \frac{x(x-2)}{(x-2)(x-2)}$$

$$= \lim_{x\to 2} \frac{x}{x-2} = \frac{2}{2-2} = \frac{2}{0} = \infty$$

(c) ketabton.com: The Digital Library

دویم مثال: $\lim\limits_{h\to 0}\frac{(x+h^2)-x^2}{h}=\lim\limits_{h\to 0}\frac{x^2+2hx+h^2-x^2}{h}$

$$\Rightarrow \lim_{h\to 0}\frac{2hx+h^2}{h}=\lim_{h\to 0}\frac{h(2x+h)}{h}=\lim_{h\to 0}(2x+h)$$

$$\Rightarrow \lim_{h\to 0}\frac{(x+h^2)-x^2}{h}=2x$$

مثال: $\lim\limits_{x\to 2}\frac{x-\sqrt{x+2}}{\sqrt{4x+1-3}}$ پیدا کړئ!

حل: دا چې x=2 د $\frac{0}{0}$ شکل اختیاروي، د لمټ د پیدا کولو لپاره د تابع صورت او مخرج د صورت او مخرج په مزدوج کې ضربوو، لرو چې:

$$\lim_{x\to 2}\frac{x-\sqrt{x+2}}{\sqrt{4x+1-3}}=\lim_{x\to 2}\frac{(x-\sqrt{x+2})(x+\sqrt{x+2})(\sqrt{4x+1+3})}{(\sqrt{4x+1-3})(\sqrt{4x+1+3})(x+\sqrt{x+2})}$$

$$=\lim_{x\to 2}\frac{(x^2-(x+2)(\sqrt{4x+1+3})(\sqrt{4x+1+3})}{\sqrt{4x+1-3}}=\lim_{x\to 2}\frac{(x-2)(x+1)(\sqrt{4x+1+3})}{4(x-2)(x+\sqrt{x+2})}$$

$$=\lim_{x\to 2}\frac{(x+1)(\sqrt{4x+1+3})}{4(x+\sqrt{x+2})}=\lim_{x\to 2}\frac{(2+1)(\sqrt{4.2+1+3})}{4(2+\sqrt{2+2})}=$$

$$=\frac{(3)(\sqrt{9+3})}{4(2+2)}=\frac{3.\cancel{6}^{3}}{4.\cancel{4}_{2}}=\frac{9}{8}$$

۲- $\frac{\infty}{\infty}$ **حالت:** کله چې $\lim\limits_{x\to\infty}\frac{F(x)}{g(x)}$ د $\frac{\infty}{\infty}$ شکل اختیار کړي، $\frac{F(x)}{g(x)}=\frac{\frac{1}{F(x)}}{\frac{1}{g(x)}}$

(c) ketabton.com: The Digital Library

په حالت کې د $\frac{\infty}{\infty}$ شکل ته بدلېږي. د دې طریقې په پیروۍ سره کولی شو ابهام رفع کړو؛ خو کېدای شي ځینې وخت سخت مثال هم آسانه حل شي. په دې حالت کې د کسر صورت او مخرج همزمان د متحول په لوړ طاقت تقسیموو، ابهام له منځه ځي، په دې شرط چې $\frac{\infty}{\infty}$ حالت د دوو توابعو په نسبت کې، چې له دې جملې څخه په پولینوم کې ښکاره شي.

مثال: هغه لمټونه چې $\frac{\infty}{\infty}$ حالت لري، غواړو څو مثالونه یې د نمونې په شکل حل کړو.

$$a)\lim_{x\to\infty}\frac{3x^2-x+4}{x^2-12x+8}=\lim_{x\to\infty}\frac{x^2(3-\frac{1}{x}+\frac{4}{x^2})}{x^2(1-\frac{12}{x}+\frac{8}{x^2})}$$

$$=\lim_{x\to\infty}\frac{3-\frac{1}{x}+\frac{4}{x^2}}{1-\frac{12}{x}+\frac{8}{x^2}}=\frac{3-,+0}{1-0+0}=\frac{3}{1}=3$$

دویم مثال:

$$=\lim_{x\to\infty}\frac{8x+5}{6x+\sqrt{x}}=\lim_{x\to\infty}\frac{x(8+\frac{5}{x})}{x(6+\sqrt{\frac{x}{x}})}=\lim_{x\to\infty}\frac{8+\frac{5}{x}}{6+\sqrt{\frac{x}{x}}}$$

$$=\lim_{x\to\infty}\frac{8+\frac{5}{x}}{6+\sqrt{x}}=\lim_{x\to\infty}\frac{x8+\frac{5}{x}}{x(6+\sqrt{\frac{x}{x.x}})}=\lim_{x\to\infty}\frac{8+\frac{5}{x}}{6+\frac{1}{\sqrt{x}}}$$

$$=\frac{8}{6}=\frac{4}{3}$$

(c) ketabton.com: The Digital Library

درېیم مثال:

$$\lim_{x\to\infty}\frac{9x^2-x+5}{\sqrt{9x^4+1}}=\lim_{x\to\infty}\frac{x^2(9-1/x+5/x^2)}{x^2\sqrt{9+\frac{1}{x^4}}}=$$

$$\Rightarrow \lim_{x\to\infty}=\lim_{x\to\infty}\frac{9}{\sqrt{9}}=\frac{9}{3}=3$$

څلورم مثال:

$$\lim_{x\to\infty}\frac{2x^2-x+3}{x^2-8x+5}=\lim_{x\to\infty}\frac{x^2(2-1/x+3/x^2}{x^2(1-8/x+5/x^2)}$$

$$=\lim_{x\to\infty}\frac{2+1/x+3/x^2}{1-8/x+5/x^2}=\frac{2}{1}=2$$

۳- درېیم حالت $(0\ \ \infty)$ **:**

$\lim_{x\to a}\{F(x).g(x)\}$ ممکنه ده په $0.\infty$ شکل وي، په دې حالت کې لمټ $F(x)\,g(x)=\frac{F(x)}{\frac{1}{g(x)}}$ د $\frac{0}{0}$ شکل اختیاروي، موږ لاندې مثالونه د نمونې په شکل حل کوو.

مثال:

$$\lim_{x\to5}\left[\ (x^2-25).\frac{1}{x-5}\right]=\lim_{x\to5}\frac{x^2-25}{x-5}=$$

$$=\lim_{x\to5}\frac{(x-5)(x+5)}{x-5}=\lim_{x\to5}(x+5)=5+5+10$$

(c) ketabton.com: The Digital Library

دویم مثال:

$$\lim_{x\to 4}\left[\left(x^2-16.\right)\frac{1}{x-4}\right]=\lim_{x\to 4}\frac{x^2-16}{x-4}$$

$$=\lim_{x\to 4}\frac{(x-4)(x+4)}{x-4}=\lim_{x\to 4}(x+4)=4+4=8$$

دریم مثال: $\lim_{x\to a}\frac{\sqrt[5]{x}-\sqrt[5]{a}}{x-a}$ مقدار محاسبه کړئ!

که $x=y^5$ او $a=b^5$ فرض کړو، لرو چې:

$$\lim_{x\to a}\frac{\sqrt[5]{x}-\sqrt[5]{a}}{x-a}=\lim_{x\to b}\frac{y-b}{y^5-b^5}=\lim_{x\to b}\frac{y-b}{(y-b)(y^4+y^3b+y^2b^2+yb^3+b^4)}$$

$$=\lim_{x\to a}\frac{1}{y^4+y^3b+y^2b^2+yb^3+b^4}=\frac{1}{5b^4}=\frac{1}{5.\sqrt[5]{a^4}}$$

4- $\infty-\infty$:

که $\lim_{x\to\infty}[f(x)-g(x)]$ د $\infty-\infty$ شکل ولري.

په دې حالت کې $f(x)-g(x)=f(x)(1-\frac{g(x)}{f(x)}$ یو له دغو $\frac{\infty}{\infty}$ او یا $0-\infty$ حالاتو ته اوړي، باید یاده شي، چې که د دوو کسرونو د تفاضل حالت او یا د جذرونو د تفاضل شکل اختیار کړي، د یو بل څخه د کسرونو د تفریق کولو، په مزدوجونو باندې د جذري افادو ضرب او تقسیم په نتیجه کې ابهام د حذف قابل وي.

مثال: $\lim_{x\to\infty}(\sqrt[5]{x+1}-\sqrt[5]{x}$ لمټ محاسبه کړئ!

حل:

$$\lim_{x\to\infty}(\sqrt{x+1}-\sqrt{x})=\lim_{x\to\infty}\frac{(\sqrt{x+1}-\sqrt{x})(\sqrt{x+1}+\sqrt{x})}{(\sqrt{x+1}-\sqrt{x})}$$

$$\lim_{x\to\infty}\frac{x+1-x}{\sqrt{x+1}+\sqrt{x}}=\lim_{x\to\infty}\frac{1}{\sqrt{x+1}+\sqrt{x}}=0$$

(c) ketabton.com: The Digital Library

دویم مثال: $\lim\limits_{x\to 1}(\frac{1}{1-x}-\frac{1}{1-x^2})$ پیدا کړئ!

$$\lim_{x\to 1}(\frac{1}{1-x}-\frac{1}{1-x^2})=\lim_{x\to 1}\frac{1+x-1}{1-x^2}=\lim_{x\to 1}\frac{x}{1-x^2}=\infty$$

$$\lim_{x\to\infty}(x^5-8x^3)=\lim_{x\to\infty}[x^5(1-\frac{8}{x^2})]=\infty.1=\infty$$

څلورم مثال: $\lim\limits_{x\to\infty}(x-\sqrt{x^2+5x+1}$ لمټ پیدا کړئ!

$$\lim_{x\to\infty}(x-\sqrt{x^2+5x+1}=\lim_{x\to\infty}\frac{(x-\sqrt{x^2+5x+1})(x+\sqrt{x^2+5x+1})}{x+\sqrt{x^2+5x+1}}$$

$$\lim_{x\to\infty}\frac{x^2-x^2-5x-1}{x+\sqrt{x^2+5x+1}}=\lim_{x\to\infty}\frac{-5x-1}{x+\sqrt{x^2+5x+1}}\Longrightarrow\lim_{x\to\infty}\frac{x(-5-\frac{1}{x})}{x+\sqrt{x^2+5x+1}}=$$

$$\lim_{x\to\infty}\frac{x(-5-\frac{1}{x})}{x(1+\sqrt{x^2+\frac{5}{x}+\frac{1}{x^2}})}=\lim_{x\to\infty}\frac{-5-\frac{1}{x}}{1+\sqrt{1-\frac{5}{x}+\frac{1}{x^2}}}=\frac{-5}{1+1}=-\frac{5}{2}$$

پنځم مثال: $\lim\limits_{x\to\infty}(\sqrt[5]{x}-\sqrt[5]{x+1})$ پیدا کړئ!

$$\lim_{x\to\infty}(\sqrt{x}-\sqrt{x+1})$$

$$\lim_{x\to\infty}(\sqrt{x}-\sqrt{x+1})=\lim_{x\to\infty}\frac{(\sqrt{x}-\sqrt{x+1})(\sqrt{x}+\sqrt{x+1})}{\sqrt{x}+\sqrt{x+1}}=\lim_{x\to\infty}\frac{x-x+1}{\sqrt{x}+\sqrt{x+1}}$$

$$=\lim_{x\to\infty}\frac{-1}{(\sqrt{x}+\sqrt{x+1})}=\frac{-1}{\infty}=0$$

بې نهایت د لمټ په حیث په بې نهایت کې

دا چې $\lim\limits_{x\to\infty}f(x)=\infty$ دی، که د هر لوی او M مثبت عدد لپاره د N یو مثبت عدد وټاکل شي، داسې چې د $|x|>N$ غیر مساوات څخه د $|f(x)|>M$ غیر مساوات لاس ته راشي، په سمبولیک شکل داسې لیکو.

$$\lim_{x\to\infty}f(x)=\infty\Leftrightarrow M>0,N>0/|x|>N\Rightarrow f(x)<M$$

(c) ketabton.com: The Digital Library

په پورتنیو تشبحاتو کې څلور حالته مطرح کېږي، چې عبارت دي له:

$1) x > N : f(x) > M \Rightarrow \lim\limits_{x\to\infty} f(x) = \infty$

$2) x < -N : f(xM < -M \Rightarrow \lim\limits_{x\to-\infty} f(x) = -\infty$

$3) x < -N : f(x) > M \Rightarrow \lim\limits_{x\to\infty} f(x) = \infty$

$4) x > N : f(x) < -M \Rightarrow \lim\limits_{x\to\infty} f(x) = -\infty$

د توابعو محدودیت

1- f(x) تابع په یوه نقطه کې محدوده نومېږي، ځکه چې $|f(x)|$ قیمتونه د M له یوه ټاکلي عدد څخه لویېدلی شي، یعنې $|f(x)| \le M$.

2- f(x) تابع کله چې $x \to a$ محدوده وي، که په یوه (a-f,a+f) مجاورت کې د a څخه محدوده وي.

3- f(x) تابع د $x \to \infty$ لپاره محدوده ده، که د N مثبت عدد موجود کړی شي، د هر x لپاره د $|x| > N$ تابع f(x) محدوده ده ، لکه f(x)=cosx په IR کې محدوده ده او $g(x) = \frac{x+1}{x}$ تابع د $x \to \infty$ لپاره محدوده ده.

بې نهایت کوچنۍ توابع

د d(x) تابع په $x \to a$ کې بې نهایت کوچنۍ نومېږي، که $\lim\limits_{x\to a} d(x) = 0$ وي.

۱: د دې لپاره چې $\lim\limits_{x\to a} d(x) = b$ وي، لازمه او کافي ده، چې f(x) د b ثابت عدد د مجموعې په حیث او د d(x) بې نهایت کوچنۍ تابع په $x \to a$ وړاندې کېدی شي، یعنې:

$$\left.\begin{array}{l} f(x) = b + d(x) \\ \lim\limits_{x\to a} d(x) = 0 \end{array}\right\} \Rightarrow \lim_{x\to a} f(x) = b$$

۲- کله چې d(x) په $x \to a$ کې بې نهایت کوچنی وي، چې صفر نه شي؛ نو

$$\lim_{x\to a} \frac{1}{d(x)} = \infty$$

۳- د بې نهایت کوچنیو توابعو مجموعه بیا هم یوه بې نهایت کوچنۍ تابع ده.

4- د بې نهایت کوچنۍ تابع د ضرب حاصل او محدوده تابع یوه بې نهایت کوچنۍ تابع وي.

۵- هرکله d(x) بې نهایت کوچنی او u(x) داسې تابع، چې لمټ یې صفر کېدای نه شي؛ نو $v(x) = \frac{d(x)}{u(x)}$ تابع بې نهایت کوچنۍ ده.

(c) ketabton.com: The Digital Library

مثال: $d(x)=x^2-4$ تابع بې نهایت کوچنۍ ده، ځکه چې که $x\to 2$ تقرب وکړي.

$$\lim_{x\to 2}(x^2-4)=4-4=0$$

دویم مثال: $d(x)=x^2-4$ په $x\to 3$ بې نهایت کوچنۍ ده.

$$\lim_{x\to 3}(x^2-9)=(3)^2-9)=9-9=0$$

دریم مثال: $d(x)=\frac{1}{2x}$ په $x\to\infty$ بې نهایت کوچنۍ ده.

$$\lim_{x\to\infty} d(x)=\lim_{x\to\infty}\frac{1}{2x}=0$$

څلورم مثال: $d(x)=x^3-27$ تابع په داسې حال کې $x\to 3$ $\lim_{x\to 3} d(x)=\lim_{x\to 3}(x^3-27)$ بې نهایت کوچنۍ ده.

$$\lim_{x\to 3}((3)^3-27)=0$$

۵- $f(x)=\frac{2}{5x^2-6x}$ تابع په $x\to\infty$ بې نهایت کوچنۍ ده، ځکه چې:

$$\lim_{x\to\infty} f(x)=\lim_{x\to\infty}\frac{2}{5x^2-6x}=\frac{2}{\infty}=0$$

د مثلثاتي توابعو لمټ

مخکې له دې چې د مثلثاتي توابعو لمټ تشریح کړو، مثلثاتي توابعو ته په لاندې ډول شرح ورکوو، چې مثلثاتي توابع یې عبارت دي له:

y=sinx

y=cosx

y=tanx

y=cotx

y=secx

y=csex

د دغو توابعو لمټ ، په داسې حال کې چې $x\to 0$ وي، په لاندې ډول یې لاس ته راوړو.

(c) ketabton.com: The Digital Library

$$1)\ \lim_{x\to 0}\sin x ='$$
$$2)\ \lim_{x\to 0}\cos x = 1'$$
$$3)\ \lim_{x\to 0}\tan x = 0$$
$$4)\ \lim_{x\to 0}\cot x = \infty'$$
$$5)\ \lim_{x\to 0}\sec x = 1'$$
$$6)\ \lim_{x\to 0} csex = \infty$$

د مثلثاتي نسبتونو تعريف

کله چې α زاويه په ستندرد حالت کې د (x,y) اختياري نقطه د دويمې ضلعې د دغې زاويې غير د مبداء څخه وي او وروسته $r=\sqrt{x^2+y^2}$ مساحت د (0,0) او (x,y) نقطو تر مينځ وي، د α زاويې مثلثاتي نسبتونه عبارت دي له:

$$\sin\alpha = \frac{y}{r}' \qquad \cos\alpha = \frac{x}{r}$$
$$\tan x = \frac{y}{x}' \qquad \cot\alpha = \frac{x}{y}$$
$$\sec x = \frac{r}{x}' \qquad \cos s\alpha = \frac{r}{y}$$

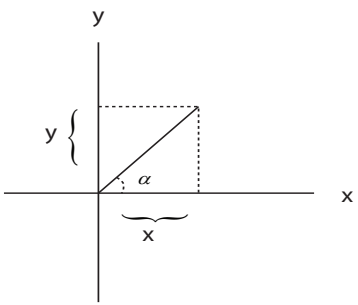

(۸) شکل

$$\tan\alpha = \frac{\frac{y}{r}}{\frac{x}{x}} = \frac{\sin\alpha}{\cos\alpha}$$

$$\cot\alpha = \frac{x}{y} = \frac{\frac{x}{r}}{\frac{y}{r}} = \frac{\cos\alpha}{\sin\alpha}$$

(c) ketabton.com: The Digital Library

باید وویل شي، چې په پورته څلور ګونو حالاتو کې مخرجونه صفر نه وي، اساسي رابطه د مثلثاتي نسبتونو ترمنځ په لاندې ډول ده.

$$\sec\alpha = \frac{r}{x} = \frac{\frac{r}{r}}{\frac{x}{r}} = \frac{1}{\cos\alpha}$$

$$\cos e\ \alpha = \frac{r}{y} = \frac{\frac{r}{r}}{\frac{y}{r}} = \frac{1}{\sin\alpha}$$

$$\sin^2\alpha = \cos^2\alpha = (\frac{y}{r})^2 + (\frac{x}{r})^2 = \frac{x^2+y^2}{r^2}$$

دا چې $x^2+y^2=r^2$ دی، په پورته معادله کې یې د هغه په ځای وضع کوو.

$$\sin^2\alpha = \cos^2\alpha = (\frac{y}{r})^2 + (\frac{x}{r})^2 = \frac{x^2+y^2}{r^2}$$

همدا ډول $1+\cot^2\alpha = \cos c^2\alpha$ په لاس راځي.

د مثلثاتي توابعو لمټ

د مثلثاتي توابعو د لمټ په محاسبه کې امکان لري، چې د ابهام حالت منځته راشي، په دا ډول لمټ کې د ابهام له مختلفو شکلونو څخه مهم شکل $\frac{0}{0}$ دی او دا حالت د یوه عمده فکتور د تشخیص په واسطه، چې د $\sin x$ نسبت او د x زاویه ده رفع کړو، موږ په مثلثاتو کې د $y=\sin x$ او $y=\cos x$ توابع پېژنو، کله چې x صفر ته نږدې کېږي د $\sin x$ تابع صفر ته تقرب کوي، یعنې $\lim\limits_{x\to 0}\sin x = 0$، چې دا د $y=\sin x$ ګراف په شکل ښه درک کولای شو. (۱)شکل

په همدې ترتیب کله چې x د (۱) خواته تقرب وکړي، یعنې $\lim\limits_{x\to 0}\cos x = 1$، په (۲) شکل کې د cosx ګراف په ښه ډول سره ښیو، معلومېږي چې د y قیمت په صفري نقطه کې له یوه سره مساوي دی. شکل (2)

قضیه:

کله چې د x زاویه د صفر خواته تقرب کوي، د sin او x نسبت د 1 خواته تقرب کوي.

(c) ketabton.com: The Digital Library

$$\lim_{x\to D}\frac{\sin x}{x}=1$$

ثبوت: د x زاویه لکه څنګه چې $0<x<\frac{\Pi}{2}$ ده، د r له شعاع سره مرکزي زاویه په نظر کې نیسو، لکه د (۴) شکل، د دوو $\overset{\Delta}{OAM},\overset{\Delta}{OAC}$ مثلثونو مساحتونه د OAM قطاع د ذکر شوې دایرې سره مقایسه کوو، لرو چې:

(۴)شکل

د $<OAC$ مثلث مساحت، د $<OAM$ قطاع مساحت، د OAM مثلث مساحت او همدارنګه د مثلثونو او قطاع مساحت په ځانګړي ډول محاسبه کوو، لرو چې:

د مثلث مساحت OAM $=\frac{1}{2}\overline{OA}\cdot\overline{BM}=\frac{1}{2}r\cdot\overline{BM}$

د قطاع مساحت OAM $=\frac{1}{2}xr^2$

د مثلث مساحت OAC $=\frac{1}{2}\overline{OA}\cdot\overline{AC}=\frac{1}{2}r\cdot\overline{AC}$

بنا پر دې د (4) شکل د مضاعفونو تساوي لاندې شکلونه اختیاروي:

$$=\frac{1}{2}r\overline{BM}<\frac{1}{2}xr^2<\frac{1}{2}r\overline{AC}.....2$$

د 2 رابطې اطراف په $\frac{2}{r^2}$ کې ضربوو، اخرني نامساوات لاندې شکل ځانته اختیاروي.

$$\frac{2}{r^2}\cdot\frac{1}{2}r\cdot\overline{BM}<\frac{2}{r^2}\cdot\frac{1}{2}xr^2<\frac{1}{2}r\overline{AC}\frac{2}{r^2}\Rightarrow\frac{\overline{BM}}{r}<x<\frac{\overline{AC}}{r}$$

دا چې $\frac{\overline{BM}}{r}=\sin x$ او $\frac{\overline{AC}}{r}=\tan x$ دی، د دې پر ځای په پورتنۍ رابطه کې وضع کوو.

$$\sin x<x<\tan x$$

$$\sin x<x<\frac{\sin x}{\cos x}$$

ټول پورتني حدونه په sinx تقسیموو، لرو چې:

(c) ketabton.com: The Digital Library

$$\frac{\sin x}{\sin x} < \frac{x}{\sin x} < \frac{\sin x}{\frac{\cos x}{\sin x}} \Rightarrow 1 < \frac{x}{\sin x} < \frac{1}{\cos x}$$

$$1 > \frac{\sin x}{\cos x} < \cos x$$

ټول حدونه معکوسوو

$$\Rightarrow \cos x < \frac{\sin x}{x} < 1$$

$$\lim_{x\to 0} \cos x < \lim_{x\to 0} \frac{\sin x}{x} < \lim_{x\to 0} 1$$

$$\lim_{x\to 0} \frac{\sin x}{x} = 1$$

د ټولو حدونو لمټ اخلو، ګورو چې:

فلهذا په نتیجه کې

لومړی مثال: $\lim_{x\to 0} \frac{tgx}{x}$ لمټ محاسبه کړئ، که چېرې $x \to 0$ وکړي.

$$\lim_{x\to 0} \frac{\tan x}{x} = \lim_{x\to 0} \frac{\sin x}{\frac{\cos x}{x}} = \lim_{x\to 0} \frac{\sin x}{\cos x} \cdot \frac{1}{x} = (\lim_{x\to 0} \frac{\sin x}{x})(\lim_{x\to 0} \frac{1}{\cos x}) = 1 \cdot 1 = 1$$

دویم مثال: $\lim_{x\to 0} \frac{\sin^2 x}{1-\cos x}$ لمټ محاسبه کړئ، که چېرې $x \to 0$ وکړي.

$$\lim_{x\to 0} \frac{\sin^2 x}{1-\cos x} = \lim_{x\to 0} \frac{1-\cos^2 x}{1-\cos x} =$$

$$= \lim_{x\to 0} \frac{(1-\cos x)(1+\cos x)}{1-\cos x} = \lim_{x\to 0} (1+\cos x) = 1+1 = 2$$

دریم مثال: $\lim_{x\to 0} \frac{\tan x}{\sin x}$ لمټ محاسبه کړئ، که چېرې $x \to 0$ وکړي.

$$\lim_{x\to 0} \frac{\tan x}{\sin x} = \lim_{x\to 0} \frac{\frac{\sin x}{\cos x}}{\sin x} = \lim_{x\to 0} \frac{\sin x}{\cos x} \cdot \frac{1}{\cos x}$$

$$= \lim_{x\to 0} \frac{1}{\cos x}$$

څلورم مثال: $\lim_{x\to 0} \frac{\sin(a \cdot x)}{x}$ محاسبه کړئ، که چېرې $x \to 0$ ته تقرب وکړي.

حل:

$$\lim_{x\to 0} \frac{\sin(a \cdot x)}{x} = \lim_{x\to 0} \frac{a \cdot \sin(a \cdot x)}{ax} = a \lim_{x\to 0} \frac{\sin(a \cdot x)}{ax} = a \cdot 1 = a$$

$$\Rightarrow \lim_{x\to 0} \frac{\sin(a \cdot x)}{ax} = a$$

(c) ketabton.com: The Digital Library

پنځم مثال: $\frac{1-\cos x}{x^2}$ لمټ محاسبه کړئ، که چېرې $x \to 0$ ته تقرب وکړي.

$$\lim_{x\to 0}\frac{1-\cos x}{x^2}=\lim_{x\to 0}\frac{(1-\cos x)(1+\cos x)}{x^2(1+\cos x)}=\lim_{x\to 0}\frac{1-\cos^2 x}{x^2(1+\cos x)}$$

$$=\lim_{x\to 0}\frac{\sin^2 x}{x^2(1+\cos x)}=(\lim_{x\to 0}\frac{\sin^2 x}{x^2})(\lim_{x\to 0}\frac{\sin^2 x}{x^2(1+\cos x)})=1\cdot\frac{1}{2}=\frac{1}{2}$$

شپږم مثال: $\lim\frac{\sin 8x}{x}$ لمټ محاسبه کړئ، که چېرې $x \to 0$ ته تقرب وکړي.

$$\lim_{x\to 0}\frac{\sin 8x}{x}=\lim_{x\to 0}\frac{8\cdot\sin 8x}{8x}=8\lim_{x\to 0}\frac{\sin 8x}{8x}=8\cdot 1=8$$

یا په بل عبارت، $8x=y$ نیسو او په پورتنۍ معادله کې یې وضع کوو.

$$\lim_{x\to 0}\frac{\sin 8x}{x}=\lim_{x\to 0}\frac{8\cdot\sin 8x}{8x}=8\lim_{x\to 0}\frac{\sin 8y}{8y}=8\cdot 1=8$$

اووم مثال: $\lim x\cot x$ لمټ پیدا کړئ، که چېرې $x \to 0$ ته تقرب وکړي.

$$\lim_{x\to 0}\cot x=\lim_{x\to 0}x\frac{\cos x}{\sin x}=\lim_{x\to 0}\frac{\cos x}{\frac{\sin x}{x}}=\lim c\cos x\cdot\lim\frac{1}{\frac{\sin x}{x}}=1\cdot 1=1$$

اتم مثال: $\lim_{x\to 0}\frac{5\cdot\sin 6x}{x}=$ پیدا کړئ.

حل: کوښښ کوو چې یو ضربي عامل د $\frac{\sin y}{y}$ په شکل لاسته راوړو، صورت او مخرج په 6 کې ضربوو، $6x=y$ وضع کوو، لرو چې:

$$\lim_{x\to 0}\frac{5\cdot\sin 6x}{x}=\lim_{x\to 0}\frac{6\cdot 5\cdot\sin 6x}{6x}=30\lim\frac{\sin 6x}{6x}=30\lim\frac{\sin 6y}{6y}=$$

$$=30\cdot 1=30\Rightarrow\lim_{x\to 0}\frac{5\cdot\sin 6x}{6x}=30$$

نهم مثال: $\frac{\sin 2x+tagx}{2\tan 3x+\sin x}$ لمټ محاسبه کړئ، که چېرې $x \to 0$ ته تقرب کړی وي.

$$\lim_{x\to 0}\frac{\sin 2x+\tan x}{2\tan 3x+\sin x}=\lim_{x\to 0}\frac{2x\frac{\sin 2x}{2x}+\frac{x\sin x}{x\cos x}}{3x\frac{2\tan 3x}{3x}+\frac{\sin x}{x}}=\frac{(x\frac{\sin^2 x}{2x}+\frac{\sin x}{x\cos x})}{(x\frac{6\tan 3x}{3x}+\frac{\sin x}{x})}=$$

$$\lim\frac{(2\lim_{x\to 0}\frac{\sin y}{y}+\lim_{x\to 0}\frac{\sin x}{x}\lim_{x\to 0}\frac{1}{\cos x})}{(2\lim_{x\to 0}\frac{\sin 3x}{3x}\cdot\lim_{x\to 0}\frac{1}{\cos x}+\lim_{x\to 0}\frac{\sin x}{x})}=\frac{2+1\frac{1}{1}}{6\cdot 1\frac{1}{1}+1}=\frac{3}{7}$$

(c) ketabton.com: The Digital Library

د لومړي څپرکي پوښتنې

د لاندې توابعو لمټ محاسبه کړئ؟

1) $\lim\limits_{x\to 2}\frac{\sqrt{x}-1}{x-1}=?$

2) $\lim\limits_{x\to\infty}\frac{x^3}{x^2+1}-x=?$

3) $\lim\limits_{x\to 2}\frac{x^2+5}{x^2-3}=?$

4) $\lim\limits_{x\to 1}\frac{1}{1-x}\frac{1}{1-x^2}=?$

5) $\lim\limits_{x\to 2}\frac{x^4-16}{x-1}=?$

6) $\lim\limits_{x\to a}\frac{x^2-a^2}{x-a}=?$

7) $\lim\limits_{x\to\infty}(x-\sqrt{x})=?$

8) $\lim\limits_{x\to 2}\frac{x^2 3ax+2a^2}{x^2-2ax-3a^2}=?$

9) $\lim\limits_{x\to 2}\frac{2x^2-11+5}{x^2+x}=?$

10) $\lim\limits_{x\to 2}(x^2-2x+\frac{4}{x})=?$

11) $\lim\limits_{x\to 0}\frac{\sqrt{x^2+1}}{x+1}=?$

12) $\lim(\sqrt{x+a}-\sqrt{x}=?$

13) $\lim\limits_{x\to 2}\frac{x^2-4}{x}=?$

14) $\lim\limits_{x\to 0}\frac{x+4}{x^2+x}=?$

15) $\lim\limits_{x\to\infty}\frac{4}{x^2}-\frac{3}{x}+4=?$

16) $\lim\limits_{x\to 0}\frac{\sqrt{x+h}-h}{h}=?$

د لاندې توابعو لمټ په لاس راوړئ؟

1) $\lim\limits_{x\to 1}\frac{\tan 8x}{\tan 2x}=?$

2 $\lim\limits_{x\to 0}\frac{\tan x}{x}=?$

3) $\lim\limits_{x\to 0}\frac{1-\cos x}{\tan^2 x}=?$

4) $\lim\frac{8\sin 5x}{x}=?$

5) $\lim\limits_{x\to 0}\frac{\sin x+\sin a}{x-a}=?$

6) $\lim\limits_{x\to 0}\frac{1-\cos\alpha}{a^2}=?$

7) $\lim\limits_{x\to 0}\frac{\sin 2\alpha}{\sin\alpha}=?$

8) $\lim\limits_{x\to 0}\frac{\sin(12x)}{\sin(4x)}=?$

9) $\lim\limits_{x\to 0}\frac{\tan 8x}{tna 2x}=?$

10) $\lim\limits_{b\to 1}\frac{\sin(b^2-1)}{b^2-1}=?$

11) $\lim\limits_{x\to 0}(x\sin\frac{1}{x})=?$

12) $\lim\limits_{x\to 0}\frac{1-\sqrt{\cos x}}{x^2}=?$

13) $\lim\limits_{x\to 1}\frac{\sin\pi x}{\sin 3\pi x}=?$

14) $\lim\limits_{x\to 0}\frac{\sin x-\cos x}{1-\tan x}=?$

15) $\lim\limits_{x\to 0}\frac{1-\cos y}{y\cdot\sin y}=?$

16) $\lim\limits_{x\to 0}\frac{1-\cos x}{\tan^2 2x}=?$

17) $\lim\limits_{x\to 0}\frac{6-6\cos^2 y}{y^2}=?$

18) $\lim\limits_{x\to 0}\frac{x-\sin 2x}{x+\sin 3x}$

19) $\lim\limits_{x\to 0}(8x\cot g 4x)=?$

20) $\lim\limits_{x\to 0}\frac{\sin^2 x-x^2}{4x^2}$

(c) ketabton.com: The Digital Library

دویم څپرکی

مشتق

ټولیزه موخه:
د مشتق او دهغه اصول پیژندل، همدارنګه د مثلثاتي او لوګارتمي توابعو له مشتقاتو سره آشناییږ

د زده کړې موخې: د دې څپرکي په پای ته رسولو سره به محصلین په لاندې برخو کې پوره پوهه ترلاسه کړي:

۱- د مشتق تعریف او د هغې د اړوندو پوښتنو حل.
۲- د مشتق قواعد او اصول په صحیح ډول پیژندل او له هغې څخه د ګټې اخستنې طریقه.
۳- د مثلثاتي توابعو د مشتقاتو تعریف او د هغې د اصولو او قواعدو پیژندل.
٤- د لوګارتمي توابعو مشتقاتو تعریف، قواعد او د مشتق نیولو د اصولو پیژندل.
٥- د دویمو او له هغې څخه د لوړو مشتقاتو پیژندل او د هغې د اړوندو پوښتنو حل کول.

د اوولسمې پېړۍ په لومړیو کې د پیر فرما فرانسوي ریاضي پوه اسحق نیوتن (انګلیسي) ولایپ نیتزد (الماني) په واسطه د مشتق بنسټ کېښودل شو، چې نن ورځ د ډېرو مهمو او اساسي اقتصادي مسایلو، تفاضلي حساب او انتیګرال اړوند معاصرې ریاضي او نور د مشتق د مفهوم په اساس رامنځته شوي دي او دا چې مشتق یو ډېر اوږد بحث دی؛ نو کوښښ کوو، چې په واضح ډول یې وڅېړو کړو.

د مشتق تعریف: د Y تابع په متحول کې د نسبي تغیر پیدا کول د یو وارد شوي تغیر په اساس په یو مستقل متحول کې، یعنې $y = f(x)$. او که د x متحول قیمت تغیر وکړي؛ نو د وارد شوي تغیر پیدا کول په نسبي شکل د Y تابع په متحول کې په $\frac{\Delta x}{\Delta y}$ شکل سره ښودل کېږي.

(c) ketabton.com: The Digital Library

یا په بل عبارت مشتق عبارت دی د تابع د تزاید لمټ د مستقل متحول پرتزاید باندې، که چېرې د مستقل متحول تزاید د صفرخواته تقرب کوي.

یعنې $\lim\limits_{x\to 0}\frac{\Delta x}{\Delta y}$ وکړي. باید یادونه وشي چې د مشتق د ښودلو لپاره د تابع د پاسه یو زور نوشته کوو، یعنې د $f'(x)$ د $f(x)$ مشتق او $g(x)$ د $g'(x)$ مشتق او $d(x)$ د $h'(x)$ او د $h(x)$ مشتق وي دا چې په یوه نقطه کې د تابع مشتق په شکل $\frac{\Delta y}{\Delta x}$ یا $\frac{dy}{dx}$ په عمومي صورت د تابع مشتق په $f'(x)\lim\limits_{x\to a}\frac{f(x)-f(a)}{x-a}$ شکل لیکو.

مثال: $f(x)=x^2$ مشتق پیداکړئ!

$$f'(x)''\lim_{x\to a}\frac{f(x)-f(a)}{x-a}=\lim_{x\to a}\frac{x^2-a^2}{x-a}$$

حل:

$$\lim_{x\to a}\frac{(x-a)(x+a)}{x-a}=\lim_{x\to a}(x+a)=a+a=2a$$

مثال: د $y=3x^2-5$ تابع د ګراف میل په (2,0) نقطه کې پیداکړئ!

$$\lim_{h\to 0}\frac{f(a+h)-f(a)}{h}$$

$$y'=\lim_{h\to 0}\frac{f(2+h)-f(2)}{h}=\lim_{h\to 0}\frac{(3(2+h)^2-5-(3(2)^2-5)}{h}$$

$$y'=\lim_{h\to 0}\frac{(3(4+4h+h^2)-5)-(3(4)-5)}{h}=$$

$$y'=\lim_{h\to 0}\frac{(12+12h+3h^2-5)-12+5)}{h}=\lim_{h\to 0}\frac{12h+3h^2}{h}$$

$$y'=\lim_{h\to 0}\frac{(12+3h)}{h}=\lim_{h\to 0}(12+3h)=12$$

د هندسي مشتق تعریف

د تابع د مماس میل په یوه مشخصه نقطه کې، د تابع له مشتق څخه په هماغه نقطه کې عبارت دی.

(c) ketabton.com: The Digital Library

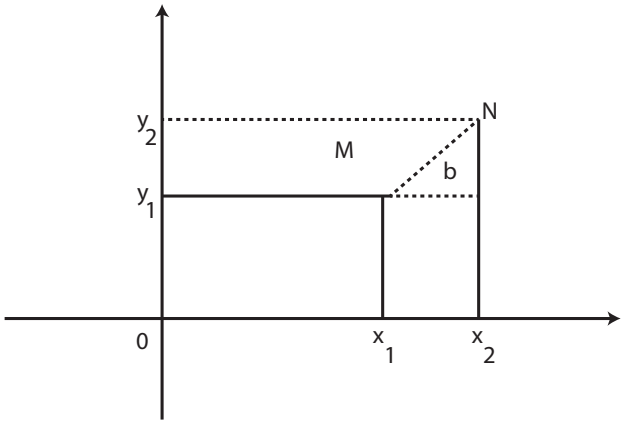

فرض کوو چې د y = f(x) تابع منحني رسم شوی، چې د منحني لومړۍ نقطه دM وي، دا نقطه د مستقل متحول ارزښت ox_1 او د تابع د متحول ارزښت oy_1 نومېږي، چې د مستقل متحول د تغیر په اثر x_1 او x_2 له M نقطې دویمې نقطې N ته تغیر خوري چې په هغې نقطه کې تابع د y_2 ارزش اختیاروي، په نتیجه کې د تابع مشتق y = f(x) دی او په یوه مشخصه نقطه کې د منحني د مماس میل پیداکول، چې M نقطه وي او که N نقطه M نقطې ته نېږدې کړو او د هغې لمټ په یوه نیږدې فاصله کې M نقطې ته تقرب ورکړو، د هغې د میلان د تغیر درجه په لاندې ډول په لاس راوړو.

$$\cos = \frac{MA}{MN} =, \sin b = \frac{AN}{MN}$$

$$\tan b = \frac{\sin b}{\cos b} = \frac{MN}{MA} = \frac{AN}{MN} \cdot \frac{MN}{MA} = \frac{AN}{MA}$$

یا

$$\tan b = \frac{AN}{MA} \Rightarrow \tan b = \frac{\Delta y}{\Delta x} = f'(x)$$

$$\Rightarrow \tan b = \frac{\Delta y}{\Delta x} = m'$$

د مشتق اقتصادي تعریف

مشتق له نهایي کمیت څخه عبارت دی، که یو مجموعي کمیت ور کړ شوی وي لکه د مجموعي عاید تابع، مجموعي لګښت، مجموعي تولید، مجموعي سپما، مجموعي سرمایه ګزاري، مجموعي صادرات او واردات او نور.

(c) ketabton.com: The Digital Library

په لنډه توګه وایو چې د تابع اول مشتق عبارت له نهایي عاید او نهایي لګښت، نهایي سپما، نهایي پانګې اچونې، صادراتو او وارداتو څخه وي، د لاندې مثالونو مشتق له لمټ نه په ګټه اخیستو پیدا کړئ!

لومړی مثال-

$$y = 3x$$
$$y' = ?$$
$$\Delta y + y = 3(x+\Delta) \Rightarrow \Delta y = 3(x+\Delta x) - y$$
$$\Rightarrow \Delta y = 3x + 3\Delta x - 3x = 3\Delta x \Rightarrow \Delta y = 3\Delta x$$
$$\frac{\Delta y}{\Delta x} = \frac{3\Delta r}{\Delta r}$$
$$\frac{\Delta y}{\Delta x} = 3 \Rightarrow y' = 3$$

دواړه خواوې په Δx تقسیموو.
دا چې $\frac{\Delta y}{\Delta x} = y'$ دی نو

دویم مثال- $f(x) = x^3$ وي $f'(x)$ پیداکړئ.

$$f'(x) = \lim_{x\to a}\frac{f(x)-f(a)}{x-a} = \lim_{x\to a}\frac{x^3-a^3}{x-a} \Rightarrow f'(x) = \lim_{x\to a}\frac{(x-a)(x^2+ax+a^2)}{x-a}$$
$$\Rightarrow f'(x) = \lim_{x\to a}(x^2+ax+a^2) = (a^2+a\cdot a+a^2)$$
$$f'(x) = (a^2+a^2+a^2) = 3a^2$$
$$f'(x) = 3a^2$$

د مشتق الجبري تعریف

هر کله چې په $y = f(x)$ تابع کې د x متحول د h په اندازه او یا Δx تزاید وکړي، ذکر شوې تابع $\Delta y = f(x+h) - f(x)$ زیاتوالی متحول کېږي او د تابع او متحول د زیاتوالي نسبت عبارت دی له:

$$\frac{\Delta y}{\Delta x} = \frac{\Delta y = f(x+\Delta x) - f(x)}{\Delta x} = \frac{f(x+h)-f(x)}{h}$$

که چېرې د x لمټ د صفر خواته تقرب وکړي.

$$\lim_{x\to 0}\frac{\Delta y}{\Delta x} = \lim_{x\to 0}\frac{\Delta y = f(x+\Delta x) - f(x)}{\Delta x} = \lim_{x\to 0}\frac{f(x+h)-f(x)}{h}$$

که وجود ولري ویلای شو چې ذکر شوې تابع د x په نقطه کې د مشتق لرونکې ده، چې لمټ په پورته رابطه کې نیول شوی دی، د مشتق نیونې عملیه ورته وایي یعنې د $y = f(x)$ تابع مشتق په لاندې ډول څېرو.

(c) ketabton.com: The Digital Library

$y' = f'(x)$ یا $\frac{dy}{d(x)} = \frac{df(x)}{dx}$ ا و یا $DY = Df(x)$

یا په لاندې شکل ښودل کېږي:

$$f'(x) = \lim_{x \to 0} \frac{f(x+\Delta x) - f(x)}{\Delta x}$$

او یا په بل عبارت:

$$y' = \lim_{x \to 0} \frac{\Delta y}{\Delta x} = \lim_{x \to 0} \frac{f(x+\Delta x) - f(x)}{\Delta x} = f'(x)$$

او په اخره معادله کې د f(x) تابع مشتق په لاندې ډول هم تعریفوو.

$$f'(x) = \lim_{y \to x} \frac{f(y) - f(x)}{y - x}$$

او همدارنګه د f(x) مشتق په $x = x_0$ کې عبارت دی له:

$$f'(x) = \lim_{x \to 0} \frac{f(x) - f(x_0)}{x - x_0} = \lim_{x \to 0} \frac{f(x_0 + h) - f(x_0)}{h}$$

مثال:- د $f(x) = x^4$ تابع مشتق دارنګه لاسته راوړو:

$$f'(x) \lim_{h \to 0} \frac{f(x+h) - f(x)}{h}$$

حل: فورمول ته په کتو لرو چې:

$$f(x+h) = (x+h)^4 = x^4 + 4x^3h + 6x^2h^2 + 4xh^3 + h^4$$

$$f'(x) = \lim_{x \to 0} \frac{f(x+h) - f(x)}{h} = \lim_{x \to 0} \frac{x^4 + 4x^3h + 6x^2h^2 + 4xh^3 + h^4}{h}$$

$$= \lim_{x \to 0} (4x^3 + 6x^2h + 4xh^2 + h^3) = 4x^3$$

مثال:- د $f(x) = 4x - x^2$ تابع د ګراف میل په $p(2,-2)$ نقطه کې پیداکړئ!

حل: د x قیمت په p نقطه کې عبارت له 2 دی او میل په m ښیو.

$$m \lim_{h \to 0} \frac{f(x+h) - f(x)}{h} = \lim_{h \to 0} \frac{f(2+h) - f(2)}{h} =$$

$$= \lim_{h \to 0} \frac{4(2+h) - (2+h^2) - 4 \cdot 2 - 2^2}{h} = \lim_{h \to 0} \frac{8 + 4h - (4 + 4h + h^2) - 8 + 4}{h}$$

$$\lim_{h \to 0} \frac{4h - (4 + 4h + h^2)4}{h} = \lim_{h \to 0} \frac{4h - 4 - 4h - h^2 + 4}{h} = \lim_{h \to 0} (-h) = 0$$

(c) ketabton.com: The Digital Library

مثال:- د $f(x)=4x-x^2$ تابع د ګراف میل په $p(3,-3)$ نقطه کې پیدا کړئ؟

$$m \lim_{h\to 0}\frac{f(x+h)-f(x)}{h}=\lim_{h\to 0}\frac{f(3+h)-f(-3)}{h}=$$

$$=\lim_{h\to 0}\frac{4(3+h)-(3+h^2)-4\cdot 3-3^2}{h}=\lim_{h\to 0}\frac{9+4h-(9+6h+h^2)-(4\cdot 3+3^2)}{h}$$

$$\lim_{h\to 0}\frac{12+4h-9-6h-h^2-12+9}{h}=\lim_{h\to 0}\frac{4-6h-h^2}{h}=\lim_{h\to 0}\frac{h(4-6-h)}{h}=$$

$$\lim_{h\to 0}(-2-h)=-2$$

د مشتق د پیداکولو قاعدې

د مشتق د سوالونو او مثالونو د اسانه حل کولو په خاطرکولای شو له فورمول او د مشتق له قواعدو نه ګټه واخلو او د هغې سوالونه په سمه توګه تر بررسۍ لاندې ونیسو.

(۱) قاعده: د ثابتې تابع مشتق صفر دی.

لومړۍ قاعده:

فرضاً $f(x)=C$ یوه ثابته تابع وي؛ نو $f'(x)=0$ دی یعنې $(C\in R)$.

ثبوت: $f'(x)=\lim_{x\to 0}\frac{f(x+h)-f(x)}{h}$ او C یو ثابت عدد دی(تزاید یا تناقص) نه لري او h مقدار خلاف د صفر $x\to 0$ کړی یعنې:

$$f(x)=\lim_{x\to 0}\frac{C-C}{h}\Rightarrow f(x)=\lim_{x\to 0}\frac{0}{h}=0$$

مثال:- د $f(x)=20$ تابع مشتق پیدا کړئ؟

$$f'(x)=\lim_{x\to 0}\frac{f(x+h)-f(x)}{h}=\lim_{x\to 0}\frac{20-20}{h}=0\Rightarrow f'(x)=0$$

دویمه قاعده:

د عینیت تابع مشتق(۱) یو دی.

هر کله چې $f(x)=x$ تابع وي؛ نو $f'(x)=1$ دی

ثبوت:

$$f'(x)=\lim_{x\to 0}\frac{f(x+h)-f(x)}{h}=\lim_{x\to 0}\frac{f(x+h)-x}{h}\lim\frac{h}{h}=1\Rightarrow f'(x)=1$$

نوټ: تابع په $x=0$ کې د مشتق نیونې وړ نه وي، په داسې حال کې چې دا تابع په صفر کې متمادي ده.

(c) ketabton.com: The Digital Library

درپیمه قاعده:

د $f'(x)=x^n$ تابع مشتق د $(n \in jn)$ لپاره عبارت له $f'(x)=nx^{n-1}$ څخه وي.

فلهذا د طاقت لرونکې تابع مشتق مساوي دی، توان ضرب د تابع او له توان نه یو کمېږي.

ثبوت:

$$f(x+h)-f(x)=(x+h)^n-x^n$$

$$=x^n+nx^{n-1}h+\frac{n(n-1)}{2!}nx^{n-2}h^2+.....+h^n-x^n$$

$$f(x+h)-f(x)=nx^{n-1}h+\frac{n(n-1)}{2!}nx^{n-2}h^2+.....+h^n$$

د رابطې دواړه خواوې په h تقسیموو لرو چې:

$$\frac{f(x+h)-f(x)}{h}=\frac{nx^{n-1}h+\frac{n(n-1nx^{n-2}h^2)}{2}}{h}+.....+h^n$$

$$\frac{f(x+h)-f(x)}{h}=\frac{n(n-1)xn}{21}+.....+h^{n-1}$$

$$f'(x)\lim\frac{f(x+h)}{h}=Lim_{h\to 0}(nx^{n-1}\frac{n(n-1)}{21}xh+.....+h^{n-1}$$

$$\Rightarrow f(x+h)=nx^{n-1} \qquad \text{یا} \quad (x^n)'=nx^{n-1}$$

مثال:- د $f(x)=4x-x^2$ تابع مشتق پیداکړئ!

$$f(x)=x^{12}$$

$$f'(x)=12\cdot x^n$$

$$2)f(x)=x^{20}\Rightarrow f'(x)=20x^{19}$$

مثال:-د $y=\sqrt{x}$ تابع مشتق درپیمې قاعدې ته په کتو لاسته راوړئ!

$$y=\sqrt{x}\Rightarrow y=x^{\frac{1}{2}}\Rightarrow y'=\frac{1}{2}x^{\frac{1}{2}-1}=\frac{1}{2}x^{-\frac{1}{2}}=\frac{1}{2x^{\frac{1}{2}}}=\frac{1}{2\cdot\sqrt{x}}\Rightarrow(\sqrt{x})'=\frac{1}{2\cdot\sqrt{x}}$$

مثال:- د $y=\frac{1}{\sqrt[4]{x}}$ تابع مشتق په لاس راوړئ!

$$y=\frac{1}{\sqrt[4]{x}}\ y=x^{-\frac{1}{4}}\Rightarrow y'=(x^{-\frac{1}{4}})'=\frac{1}{4}x^{-\frac{5}{4}}\Rightarrow y'=-\frac{1}{4\sqrt[4]{x^5}}\Rightarrow y'=-\frac{1}{4\cdot x\sqrt[4]{x}}$$

(c) ketabton.com: The Digital Library

څلورمه قاعده:

د یوې تابع او د یوه ثابت عدد د ضرب د حاصل مشتق مساوي دی د تابع مشتق ضرب له هغه ثابت عدد

سره هر کله چې f یوه تابع او k یو ثابت عدد وي مشتق: $[kf(x)] = kf'(x)$

$$[kf(x)]\lim_{h\to 0}\frac{kf(x+h)-kf(x)}{h}$$

$$=\lim_{h\to 0}\frac{k[f(x+h)-kf(x)]}{h}=\lim_{h\to 0}\frac{f(x+h)-f(x)}{h}$$

$$=\lim_{h\to 0}k\cdot\lim_{h\to 0}\frac{f(x+h)-f(x)}{h}=k\cdot f'(x)$$

مثال:- د $3)\,f(x)=8\cdot x^{12}$ $2)\,f(x)=7\cdot x^{6}$ $f(x)=12x^{8}$ توابعو مشتق په لاس راوړی.

$a)\,f(x)=8\cdot x^{8}$

$f'(x)=8\cdot x^{12-1}=96x^{11}$

$\Rightarrow f9x)=96x^{11}$

$b)\,f(x)=7x^{6}\Rightarrow f'(x)=7\cdot(x^{6})'$

$f(x)=7(6x^{6-1})=7(6x^{5})'=42x^{5}$

$c)\,f(x)=12x^{8}$

$f(x)=12(x^{8})=12(8x^{7})=96x^{7}$

$\Rightarrow f(x)=96x^{7}$

پنځمه قاعده:

د توابعو مجموعي مشتق مساوي دی د توابعو د مشتقونو له مجموعې سره، هر کله چې د $u(x)$ او $v(x)$ توابع ولرو؛ نو $(u+v)'=u'+v'$ ثبوت لرو چې:

$$[u(v)+v(x)]'=\lim_{h\to 0}\frac{\{u(x+h)+v(x+h)\}-\{u(x)+v(x)\}}{h}$$

$$=\lim_{h\to 0}\frac{u(x+h)-u(x)}{h}+\lim_{h\to 0}\frac{v(x+h)-v(x)}{h}=u'(x)+v'(x)\Rightarrow(u+v)'=u'+v'$$

مثال د توابعو د مجموعې مشتق $v(x)=10x+89, u(x)=4x^{2}+5x$ پیداکړئ!

حل:

$[u(x)+v(x)]'=u'(x)+v'(x)$

$[u(x)+v(x)]'=(4x^{2}+5x)'+(10x+8)'=8x+5+10=8x+15$

(c) ketabton.com: The Digital Library

یادښت: هر کله چې $y=u+v+w$ تابع وي او هره یوه برخه د تابع د x تابع وي د دا رنګه توابعو مشتق عبارت دی له: $y'=u'+v'+w'$

مثال:هر کله چې $y=15x^6+2x^5+4x^3+4$ تابع د نوموړو توابعو مشتق لاسته راوړئ!

حل:

$$y'=u'+v'+w'$$
$$y=15x^6+2x^5+4x^3+4$$
$$y'=90x^5+10x^4+12x^2$$

شپږمه قاعده:

د دوه توابعو د ضرب د حاصل مشتق مساوي دی د مضرب مشتق ضرب مضروب فیه جمع د جمعې مشتق د مضروب فیه د مضروب سره.

هر کله چې $u(x)$ او $v(x)$ توابع ولرو نو:

$$y'=u'+v'+w'$$
$$(u(x),v(x))'=\lim_{h\to 0}\frac{u(x+h)v(x+h)-u(x)v(x)}{h}$$

ثبوت:

که چېرې $v(x+h)(u(x))$ هم جمع او هم تفریق کړو معادله لاندې شکل غوره کوي:

$$\lim_{h\to 0}\frac{u(x+h)v(x+h)-u(x)v(x+h)+u(x)v(x+h)-u(x)v(x)}{h}$$
$$\lim_{h\to 0}\left[\frac{u(x+h)-u(x)v(x)}{h}+u(x)\frac{v(x+h)-v(x)}{h}\right]$$
$$\lim_{h\to 0}\left[\frac{u(x+h-v(x)}{h}y(x)+u(x)\lim_{h\to 0}+u(x)\frac{v(x+h)-v(x)}{h}\right]$$
$$\Rightarrow u'(x)v(x)++u(x)y'(x)$$

مثال:- که زموږ تابع لاندې شکل ولري:

$$y=(8x^3+3x^2+5)(2x^2+4x)$$
$$y'=u'+v'+w'$$
$$u'=24x^2+6x$$
$$v'=4x+4$$
$$f'(x)=(24x^2+6x)(2x^2+4x)(4x+4)(8x^3+3x^2+5)$$
$$f'(x)=48x^4+96x^3+12x^3+24x^2+32x^4+12x^3+20x+12x^3+32x^3+12x^2+20$$
$$f'(x)=80x^4+152x^3+36x^2+20x+20$$

(c) ketabton.com: The Digital Library

دویم مثال – هر کله چې د $y=(3x^2+2x)(7x^3+8)$ وي $y'(x)$ مشتق یې پیداکړئ!

حل:

$$y'=(x)=u'(x)v(x)+u(x)v'(x)$$
$$u'=6x+2$$
$$v'=21x^2$$
$$y'(x)=(6x+2)(7x^3+8)(21x^2)(3x^2+2x)$$
$$y'(x)=42x^4+48x+14x^3+16+63x^4+42x^3$$
$$y'(x)=105x^4+56x^3+48x+16$$

اوومه قاعده:

د کسري تابع مشتق عبارت دی د صورت مشتق ضرب مخرج منفي د مخرج مشتق ضرب صورت پر مخرج مربع

هر کله چې د $u(x)$ او $v(x)$ توابع ورکړل شوي وي؛ نو:

$$(\frac{u}{v})'=\frac{u'v+v'u}{v^2}$$
$$(\frac{u}{v})'=\lim_{x\to 0}\frac{\frac{u(x+h)}{v(x+h)}-\frac{u(x)}{v(x)}}{h}=$$
$$\lim_{x\to 0}\frac{v(x+h)(v(x))-u(x)(v(x+h))}{v(x+h)v(x)}$$
$$\lim_{x\to 0}\frac{u(x+h)v(x)-u(x)v(x)+u(x)v(x)-u(x)v(x+h)}{v(x+h)v(x)h}=$$

پورته $u(x)$ او $v(x)$ هم جمع او هم منفي شوي، په رابطه کوم تغیر نه دی راغلی او همدارنګه صورت او مخرج په h تقسیموو لاندې شکل نیسي.

$$\lim_{x\to 0}\frac{\frac{u(x+h)-u(x)}{h}v(x)-u(x)\frac{v(x)-v(x)}{h}}{\frac{v(x+h)v(x)h}{h}}=$$

او په نتیجه کې

$$=\frac{v(x)\lim_{h\to 0}\frac{u(x+h)-u(x)}{h}-u(x)\lim_{h\to 0}\frac{v(x+h)-v(x)}{h}}{\lim v(x+h)v(x)}=$$
$$=\frac{u'(x)v(x)-u(x)v'(x)}{(v(x))^2}$$

(c) ketabton.com: The Digital Library

هر کله چې $u(x)$ او $v(x)$ توابع ورکړل شوې وي نو:

$$(\frac{u}{v})' = \frac{u'v+v'u}{v^2}$$

$$(\frac{u}{v})' \lim_{h\to 0} \frac{\frac{u(x+h)}{v(x+h)} - \frac{u(x)}{v(x)}}{h}$$

مثال:- هر کله چې $y = \frac{10x^4+5x^2}{2x^6-4x}$ تابع وي مشتق یې پیداکړئ؟

حل: دا چې $(\frac{u}{v})' = \frac{u'v+v'u}{v^2}$ دی. $v(x) = 2x^6+4x,\ \ (x) = 10x^4+5x^2$ هغه په معادله کې وضع کوو، لرو چې:

$$f'(x)(\frac{u}{v})' = \frac{u'v+v'u}{v^2}$$

$$f'(x) = \frac{(40x^3+10x)(2x^6-4x)-(10x^4+5x^2)(12x^5-4)}{(2x^6-4x)^2} =$$

$$f'(x) = \frac{(80x^9-40x^7-20x^7-40x^2)-120x^9+40x^4-40x^4-60x^7+20x^2)}{(2x^6-4x)^2}$$

$$f'(x) = \frac{-40x^9-40x^7-120x^4-20x^2}{(2x^6-4x)^2} \Rightarrow y' = \frac{-40x^9-40x^7-120x^4-20x^2}{(2x^6-4x)^2}$$

دویم مثال- د $y = \frac{1}{x^4}$ تابع مشتق پیداکړئ؟

حل: که $u(x) = 1$ او $v(x) = x^4$ وضع شي نظر اوومې قاعدې ته لرو چې:

$$y' = (\frac{u(x)}{v(x)})' = \frac{(1)'}{(x^4)} = \frac{0x^2-4x^3\cdot 1}{(x^4)^2} = \frac{-4x^3}{x^8} \Rightarrow y' = -\frac{4}{x^5}$$

اتمه قاعده

هر کله چې v,u او w توابع د مشتق نیونې وړ وي لرو چې:

$$(uvw)'[u(v\cdot w)]' = u'(v\cdot w)+u(vw)'$$

$$= u'vw+u(v'w+vw') = u'vw+uv'w+uvw'$$

$$\Rightarrow (uvw)' = u'v\cdot w+uv'w+uvw'$$

مثال:- د $y = (2x^2+2x)(x^2-4)(3x^2+x)$ توابعو مشتق پیداکړئ؟

حل: اتمې قاعدې ته په کتو لرو چې:

(c) ketabton.com: The Digital Library

$$(uvw)' = u'v \cdot w + uv'w + uvw'$$
$$y' = (4x+2)(x^2-4)(3x^2+x) + (2x^2+2x)(2x)(3x^2+x) + (2x^2+2x)(x^2-4)(6x-1)$$
$$y' = (4x^3-8x+2x^2-8x)(3x^2+x) + (4x^3+4x^2)(3x^2+x) + (2x^4-8x^2+2x^3-8x)(6x-1)$$
$$y' = (12x^5+4x^3-24x^2-8x^2+4x^2+6x^4+2x^3-24x^2+2x^3-8x+12x^5+4x^4$$
$$+12x^4+4x^3+12x^5+2x^4-48x^3-8x^2+12x^4+2x^3-48x^2-8x$$
$$\Rightarrow y' = 36x^5+40x^4-64x^3-88x^2-16x$$

نهمه قاعده:

هر کله چې u تابع د مشتق نیونې وړ وي او c هم ثابت عدد(ثابته تابع) وي نو:

$$(cu)' = c'u + cu' = 0 \cdot u + cu' = cu' \Rightarrow (cu)' = cu'$$

لومړی مثال:- د $y = (24)(2x^3+5x)$ توابعو مشتق پیداکړئ؟

حل: داچې $u = 2x^3+5x$ او $c = 24$ دی او مشتق یې $u = 6x^2+5$ او c=0 دی په معادله کې وضع کوو.

$$y' = (cu)' = (c)'(u) + c(u)'$$
$$y' = (cu)' = y' = (24)'(2x^3+5x) + (24)(2x^3+5x) = 0(2x^3+5x) + 24(6x^2+5)$$
$$y' = 0 + 144x^2 + 120 \Rightarrow y' = (cu)' = 144x^2 + 120$$

لسمه قاعده:

د مرکبو توابعو مشتق(تابع تابع) د مرکبې تابع مشتق مساوي دی عمومي مشتق ضرب داخلي مشتق دی.

فرضا $(fog)(x)$ یوه مرکبه تابع ده ثبوتوو چې:

ثبوت:

$$[fog(x)]' = [f(g(x))]'$$
$$= f'(g(x)) \cdot g'(x)$$
$$[f(g(x))]' = \lim_{h \to 0} \frac{f(g(x)+h) - f(g(x))}{h}$$

اوس x+h په x' ښیو؛ نو $h = x' - x$ کېږي

$$\lim_{x' \to x} \frac{f(g(x)+h)' - f(g(x))}{x' - x}$$

حل: صورت او مخرج په $g(x') - g(x)$ ضربوو لرو چې:

(c) ketabton.com: The Digital Library

$$\lim_{x'\to x}\frac{f(g(x))'-f(g(x)}{x'-x}\cdot\frac{g(x')-g(x)}{g(x')-g(x)}=$$

$$\lim_{x'\to x}\frac{f(g(x')-f(g(x)}{g(x')-g(x)}\cdot\frac{g(x')-g(x)}{x'-x}=$$

$$\lim_{g(x')\to g(x)}\frac{f(g(x')-f(g(x)}{g(x')-g(x)}\cdot\lim_{x'\to x}\frac{g(x')-g(x)}{x'-x}$$

$$\Rightarrow\left[f(g(x)\right]'=f'(g(x)\cdot g'(x)$$

مثال:- د $f(x)=(x^5+4)^8$ تابع مشتق محاسبه کړئ؟

$$f'(x)=f'(g(x))\cdot g'(x)$$

$$f'(x)=8(x^5+4)^{8-1}(5x^{5-1})$$

$$f'(x)=8(+4)^7\cdot 5x^4=40(x^5+4)^7\cdot x^4$$

دویم مثال:- د $g(x)\frac{1}{(x^3-4x^2+2)^4}$ تابع مشتق محاسبه کړئ؟

$$g(x)\frac{1}{(x^3-4x^2+2)^4}=(x^3-4x^2+2)^{-4}$$

$$g'(x)=-4(x^3-4x^2+2)^{-4-1}\cdot(3x^2-8x)$$

$$g'(x)=-4(x^3-4x^2+2)^{-5}\cdot(3x^2-8x)$$

$$g'(x)=\frac{-4(3x^2-8x)}{(x^3-4x^2+2)^5}=\frac{-12x^2+32x}{(x^3-4x^2+2)^5}$$

$$\Rightarrow g'(x)=\frac{-12x^2+32x}{(x^3-4x^2+2)^5}$$

دریم مثال:- د $f(x)=\sqrt{x^3+2}$ تابع مشتق محاسبه کړئ؟

$$f(x)=\sqrt{x^3+2}=(x^3+2)^{\frac{1}{2}}$$

$$\Rightarrow\left[f(g(x)\right]'=f'(g(x)\cdot g'(x)$$

$$f'(g)=\frac{1}{2}(x^3+2)^{\frac{1}{2}-1}\cdot(3x^2)=\frac{1}{2}(x^3+2)^{\frac{1}{2}}\cdot(3x^2)$$

$$f'(g)=\frac{1}{2}\cdot\frac{3x^2}{(x^3+2)^{\frac{1}{2}}}=\frac{3x^2}{2\cdot\sqrt{x^3+2}}$$

$$\Rightarrow f'(g)=\frac{3x^2}{2\cdot\sqrt{x^3+2}}$$

(c) ketabton.com: The Digital Library

د مثلثاتي توابعو مشتق

د مثلثاتي توابعو مشتق عبارت دی له:

$$1)\ \frac{d}{dx}(\sin x) = (\sin x)' = \cos x$$

$$2)\ \frac{d}{dx}(\cos x) = (\cos x)' = \sin x$$

$$3)\ \frac{d}{dx}(\tan x) = (\tan x)' = \frac{1}{\cos^2 x} = \sec^2 x$$

$$4)\ \frac{d}{dx}(\cot x) = (\cot x)' = \frac{-1}{\sin^2 x} = -\cos^2 x$$

$$5)\ \frac{d}{dx}\sec(x) = (\sec x)' = \sec x \cdot \tan x$$

$$6)\ \frac{d}{dx}(\sec x) = (\sec x)' = -\cos x \cdot \csc x$$

$$1)\ \frac{d}{dx}(\sin x) = (\sin x)' = \underset{h\to 0}{Lim}\frac{\sin(x+h)-\sin x}{h}$$

$$= \underset{h\to 0}{Lim}\frac{2\sin\frac{x+h}{2}\cos\frac{x+h+x}{2}}{h} = \underset{h\to 0}{Lim}\frac{\sin h/2}{h/2}\cdot Lim\cos(x+\frac{h}{2})$$

$$(\sin x)' = 1\cdot\cos x \Rightarrow (\sin x)' = \cos x$$

$$2)(\cos x)' = \underset{h\to 0}{Lim}\frac{\cos(x+h)-\cos x}{h}\ \underset{h\to 0}{Lim}\frac{-2\sin\frac{x+h}{2}\sin\frac{x+h+x}{2}}{h}$$

$$\underset{h\to 0}{Lim}\frac{\sin h/2}{h/2}\cdot Lim\cos(x+\frac{h}{2}) = -1\cdot\sin x = -\sin x$$

$$3)\ \frac{d}{dx})(\tan x) = (\tan x)' = (\frac{\sin x}{\cos x})' = \frac{(\sin x)'-\cos x - \sin x(\cos x)'}{\cos^2 x} =$$

$$= \frac{\cos x\cdot\cos x - \sin x(\sin x)'}{\cos^2 x} = \frac{\cos^2 x + \sin^2 x}{\cos^2 x} = \frac{1}{\cos^2 x} = \sec^2 x$$

$$\Rightarrow \frac{d}{dx}(\tan x) = \sec^2 x$$

$$4)\ \frac{d}{dx}(\tan x) = (\cot x)' = (\frac{\cos x}{\sin x}) = \frac{(\cos x)'\sin x - \cos x(\sin x)'}{\sin^2 x}$$

$$= \frac{\sin x\cdot\sin x - \cos x\cdot = \cos x}{\sin^2 x} = \frac{-(\sin^2 x + \cos^2 x)}{\sin^2 x} = -\frac{\sin^2 x + \cos^2 x}{\sin^2 x} =$$

$$= -\frac{1}{\sin^2 x} = -\csc^2 x \Rightarrow (\cot x)' = -\csc^2 x$$

(c) ketabton.com: The Digital Library

$$5)\ \frac{d}{dx}\sec x = (\sec x0' = (\frac{1}{\cos x})' = \frac{0\cdot\cos x - 1(\cos x)'}{\cos^2 x} = \frac{-(-\sin x)}{\cos^2 x} = \frac{\sin x}{\cos^2 x} =$$

$$= \frac{\sin x}{\cos x\cdot\cos x} = \frac{1}{\cos x}\cdot\frac{\sin x}{\cos x} = \sec x\cdot\tan x \Rightarrow (\sec x)' = \sec x\cdot\tan x$$

$$6)\ \frac{d}{dx}\csc x = -\csc x\cdot\cot x$$

$$(\csc x)' = \left[\frac{1}{\sin x}\right] = \frac{0\cdot\cos x - 1(\cos x)'}{\cos^2 x} = \frac{-\cos x}{\sin^2 x} = \frac{-\cos x}{\sin x\cdot\sin x} =$$

$$= -\csc x\cdot\cot x \Rightarrow (\csc x)' = -\csc x\cdot\cot x$$

لومړی مثال:- د $y = \frac{x^2}{\cos x}$ تابع مشتق پیداکړئ؟

$$y' = \frac{(x^2)'\cos x - (\cos x')x^2}{\cos^2 x} = \frac{2x\cos x - 1(\sin x)x^2}{\cos^2 x} = \frac{2x\cos x + x^2\sin x}{\cos^2 x}$$

$$\Rightarrow y' = \frac{2x\cos x + x^2\sin x}{\cos^2 x}$$

دویم مثال:- د $y = x^4\sin x$ تابع مشتق محاسبه کړئ؟

$$y = (x^4)'\sin x + (x^4)(\sin x)' = 4x^3\sin + x^4\cos x$$

$$\Rightarrow y' = 4x^3\sin + x^4\cos x$$

دریم مثال:- $y = \sin\frac{\pi x}{180}$ مشتق یې محاسبه کړئ؟

حل: هر کله چې $f(x)\sin x$ او $g(x) = \sin\frac{\pi x}{180}$ وضع کړو او y لاندې قیمت اختیاروي.

$$y = f(g(x)) \Rightarrow y' = f'(g(x))\cdot g'(x)$$

$$y' = (\sin x)'(g(x))\cdot(\frac{\pi}{180}x)' = \cos\frac{\pi}{180}x\cdot\frac{\pi}{180} = \frac{\pi}{180}\cos\frac{\pi}{180}$$

څلورم مثال- د $y = \cos\frac{\pi x}{180}$ تابع مشتق محاسبه کړئ؟

حل: که f(x)cos او $g(x) = \cos\frac{\pi x}{180}$ وضع کړو.

$$y = f(g(x)) \Leftrightarrow y' = f'(g(x)).g'(x)$$

$$y' = (\cos)'(\frac{\pi}{180}x).(\frac{\pi}{180}x) = -\sin(\frac{\pi}{180}x)\ \frac{\pi}{180}$$

$$y' = -\frac{\pi}{180}\sin\frac{\pi x}{180}$$

(c) ketabton.com: The Digital Library

پنځم مثال:- د $y=\cos^2 2x$ تابع مشتق پیداکړئ!

حل: لسمې قاعدې ته په کتو لرو چې:

$$(f(g(x)))' = f'(g(x)).g'(x)$$
$$(\cos^2 2x)' = 2\cos(2x).\cos(2x)' = 2\cos(2x)(-2\sin(2x))2$$
$$(\cos^2 2x)' \Rightarrow = -4\cos 2x.\sin 2x$$

شپږم مثال:- د y=cos(6x-4) تابع مشتق پیداکړئ!

$$y'(\cos(6x-4))' = -\sin(6x-4).(6x-4)$$
$$= -\sin(6x-4)\ 6$$
$$\Rightarrow y' = -6\sin(6x-4)$$

اووم مثال:- د y=sin(4x-1) تابع مشتق محاسبه کړئ!

حل:

$$(\sin(4x-1))' = \cos(4x-1).(4x-1)' = \cos(4x-1)4 = 4\cos(4x-1)$$
$$\Rightarrow (\sin(4x-1))' = 4\cos(4x-1)$$

اتم مثال:- د y=secx.cotx تابع مشتق محاسبه کړئ!

حل:

$$y' = (\sec x.\cot anx)' = (\sec x)\ \cot inx + (\cot x)'\sec$$
$$= (\sec x.\tan x)(\cot x + (-\cos^2 x)\sec x$$
$$= \sec x - \cos^2 x.\sec x$$
$$= \sec x(1-\cos^2 x)$$

د لوګارتمي توابعو مشتق

د لوګارتمي تابع مشتق $y = \log_a^x$ عبارت دی له $y' = \frac{1}{x}\log_a^e$ داچې په پورته فورمول کې a کولای شي هر قیمت غوره کړي او e عبارت ده له $\lim_{x\to 0}(1+x)^{\frac{1}{x}} = e$ او یا $\lim_{x\to 0}(1+a)^{\frac{1}{a}} = e$ او e یو غیر ناطق ثابت عدد دی او قیمت یې عبارت دی له

e =2,7182818284599045……

او اوس د $y = Log_a^x$ تابع مشتق پیداکوو چې $(Log_a^x)' = \frac{1}{x}Log_a^e$

(c) ketabton.com: The Digital Library

ثبوت:

$$(Log_a^x)' = \lim_{x\to 0}\frac{Log(x+h)-\log_a^x}{h} = \lim_{x\to 0}[\frac{1}{h}Log_a\frac{x+h}{x}]$$

$$\frac{1}{x}\lim_{x\to 0}[\frac{x}{h}Log_a(1+\frac{h}{x})] = \frac{1}{x}\lim_{x\to 0}Log_a(1+\frac{h}{x})^{\frac{x}{h}}$$

$$= \frac{1}{x}\lim_{a\to 0}\log_a(1+a)^{\frac{1}{a}} = \frac{1}{x}Log_a^e$$

$$\Rightarrow (Log_a^x)' = \frac{1}{x}Log_a^e$$

دا چې $\frac{h}{x}=a$ فرض کوو.

یا په بل عبارت زنځیري قاعدې ته په کتو $f'(x)=f'(u)u'(x)$ که چېرې $f(x)=Loab^{u(x)}$ غواړو لرو $f'(x)=\frac{1}{u(x)}\log_a^e.u'(x)$ دی که چېرې $u=x$ وي $f(x)Log_e^x$ مساوي په $f'(x)=\frac{1}{x}$ سره دی.

نتیجه: د پورته فرمول ثبوت دارنګه تشریح کوو چې:

۱- هر کله چې a=e وي که چېرې $\log_a^e=\log_a^e=1$ دی یعنې:

$$(Lnx)' = (Log_a^e)' = \frac{1}{x}Log_a^e = \frac{1}{x}.1 = \frac{1}{x} \Rightarrow (Lnx)' = \frac{1}{x}$$

۲-هر کله چې a=10 وي که چېرې $Log_a^x = Log_{10}^x$ لیکلای شو او د هغې مشتق اخیستلای شو داسې چې:

$$Log_a^x)' = (Log_{10}^x)' = \frac{1}{x}Log_{10}^e = \frac{1}{x}.Loge$$

$$\Rightarrow = (Logx)' = \frac{1}{x}Loge$$

لومړی مثال:- د f(x)=Log(4 x+2) تابع مشتق محاسبه کړئ!

حل: په دې ځای کې u(x)=4x+2 او $u'(x)=4$ نو

$$f'(x) = \frac{u'(x)}{u(x)}Log_e\frac{4}{4x+2} \Rightarrow \frac{4}{4x+2}Log_e = f'(x)$$

(c) ketabton.com: The Digital Library

د توان لرونکو توابعو مشتق:

د$y=a^x$ توابعو مشتق دارنګه محاسبه کوو:

$y=a^x$ دواړو خواوو ته مشتق نیسو $Lny = xLna$

دواړو خواو ته مشتق نیسو $\frac{y'}{y} = Lna$

$$\Rightarrow y' = y.Lna = a^x.Lna \Rightarrow y' = a^x.Lna$$

دویم مثال- لاندې مشتقات محاسبه کړئ!

$$a) f(x) = Log5x$$
$$b) g(x) = Ln(x^2+1)$$
$$c) f(x) = Ln(x^3+x^2)$$
$$d) f(x) = Ln(\cos 3x)$$

حل:

$$a) f(x) = Log5x$$

په دې ځای کې u(x)=5x او $u'(x)$ نظر فورمول ته لرو چې:

$$f'(x) = \frac{u'(x)}{u(x)}.Loge = \frac{5}{5x}Loge = \frac{Loge}{x}$$

$$b) g(x) = Ln(x^2+1)$$

$$c) f(x) = Ln(x^3+x^2)$$

حل: $u(x) = x^2+1$ او $u'(x) = 2x$ فورمول ته په کتو لرو چې:

$$g'(x) = \frac{u'(x)}{u(x)}.Lne = \frac{2x}{x^2+1}Lne = \frac{2x}{x^2+1}$$

داچې $Lne = 1$ دی.

حل:

داچې:

$$u'(x)3x^2+2x, u(x) = x^3+x^2$$

$$f'(x) = \frac{u'(x)}{u(x)}.Lne = \frac{3x^3+2x}{x^3+x^2}Lne = \frac{3x^2+2x}{x^3+x^2}$$

$$f'(x) = \frac{x(x+2)}{x(x^2+2x)} = \frac{x+2}{x^2+x}$$

(c) ketabton.com: The Digital Library

حل:

$$d)\, f(x) = Ln(\cos 3x)$$

$$u'(x) = -3\sin 3x, u(x) = \cos 3x$$

$$g'(x) = \frac{u'(x)}{u(x)} = \frac{-3\sin 3x}{\cos 3x} = -3\tan 3x$$

که $y = Lpg_e^{u^x}$ تابع موجوده وي که چېرې u=f(x) وي مشتق يې عبارت دی له:

$$y = Log_e^{u^n} = (Log_e^{u^n})' = \frac{n.u^{n-1}.u'}{v^n} = \frac{nu'}{u}$$

$$\Rightarrow y' = \frac{nu'}{u}$$

مثال: د لاندې معادلې مشتق پيداکړئ:

$$y = Log(10x^3.5x^2 + 6x)^2$$

$$u = 10x^3.5x^2 + 6x$$

$$u'(x) = 30x^2 + 10x + 6$$

$$y'(x) = \frac{n.u'u^{n-1}.}{v^n} = \frac{nu'}{u} =$$

$$y'(x) = \frac{2(30x^2 + 10x + 6)(10x^3.5x^2 + 6x)}{(10x^3.5x^2 + 6x)^2} = \frac{60x^2 + 20x + 12}{(10x^3.5x^2 + 6x)^2}$$

$$y'(x) = \frac{2(30x^2 + 10x + 6)}{2(5x^3 + 2.5x^2 + 3x)^2} = \frac{30x^2 + 10x + 6}{5x^3 + 2.5x^2 + 3x}$$

د ضمني توابعو مشتق

هر کله چې د x اوy متحولين د y=f(x) را بطې پواسطه له يو بل سره رابطه ولري، په دې صورت کې y صريح تابع د x متحول ده، ولې ممکنه ده چې د y, x تر منځ ارتباط د f(x,y)=0 رابطې پواسطه معين يا ټاکلی وي، په دې حالت کې ويل کېږي، چې y ضمني تابع د x وي لکه $x^2 + y^2 - r^2 = 0$ معادله چې دوه صريح تابع $y = \sqrt{r^2 - x^2}$ او $y = -\sqrt{r^2 - x^2}$ افاده کوي او پورته معادله د ذکر شويو توابعو ضمني حالت دی .د ضمني توابعو د مشتق پيداکولو په خاطر y نظر x متحول ته د ټاکلې معادلې دواړو خواوته نظر x ته مشتق نيسو، داسې چې y متحول د x ترلې تابع فرض کېږي او په نهايت کې د y تابع مشتق نظر x متحول ته عبارت دی له:

(c) ketabton.com: The Digital Library

$$\frac{dy}{dx}=\frac{f'(x)}{f'(y)}$$

که y ثابت فرض شي $f'(x)$ د f مشتق نظر x متحول ته دی، که x ثابت فرض شي $f'(y)$ د f مشتق نظر y متحول دی.

مثال: د y مشتق نظر x ته له $x^2+y^2-r^2=0$ ضمني تابع په لاس راوړئ!

حل:

$$(x^2+y^2-r^2)'=2x+2yy'=0$$
$$\Rightarrow 2yy'=-2x\Rightarrow y'=-\frac{2x}{2y}\Rightarrow y'=-\frac{x}{y}$$

دویم مثال-

$$y^6-y-x^2=0$$
$$(y^6-y-x^2)'=6y^5y'-y'-2x=0$$
$$\Rightarrow 6y^5y'-y'=2x\Rightarrow y'(6y^5-1)=2x\Rightarrow y'=\frac{2x}{6y^5-1}$$

دریم مثال- د $y^4-y-x^2=0$ تابع مشتق پیداکړئ!

$$y^4-y-x^2=0\Rightarrow(y^4-y'-x^2)=0\Rightarrow 4y^3y'-y'-2x=0$$
$$\Rightarrow 4y^3y'-y'=2x\Rightarrow y'(-1)=2x\Rightarrow y'=\frac{2x}{4y^3-1}$$
$$\Rightarrow(y^4-y-x^2)'=\frac{2x}{4y^3-1}$$

باید یادونه وشي، چې موږ کولای شو د لوګارتم په وسیله مشتق ګیري وکړو، ځکه په ډېرو مواردو کې د توابعو مشتق له لوګارتم نه په ګټه اخیستو محاسبه کېږي، داسې چې په پیل کې د y=f(x) رابطې دواړو خواوو ته طبیعي لوګارتم نیسو

لرو چې Lny=Lnf(x)

د پورته ذکر شوې رابطې دواړو خواوو ته د ضمني تابع په حیث کولای شو مشتق ونیسو، داسې چې

$$(Lny)'=\frac{1}{y}y'\Rightarrow\frac{y'}{y}=(Lny)'\Rightarrow y'=y(Lny)'$$
$$\Rightarrow y'=f(x).)Lny)'$$

داچې y = f(x) دی

(c) ketabton.com: The Digital Library

دویمه طریقه:

$$(Lnf(x))'\frac{f'(x)}{f(x)} \Rightarrow f'(x) = f(x).(Lnf(x))'$$

لومړی مثال: د $y = x^{2x}$ مشتق د لوګارتم په مرسته محاسبه کړئ!

حل:

$$y = x^{2x}$$
$$Lny = Lnx^{2x} \Rightarrow Lny = 2x.Lnx$$
$$(Lny)' = (2Lnx)' \Rightarrow \frac{y'}{y} = 2Lnx + 2x.\frac{1}{x}$$
$$y' = y(2Lnx + 2) \Rightarrow y' = 2(Lnx + 1)\, y$$
$$y' = 2(Lnx + 1)x^{2x}$$

داچې $y = x^{2x}$ په پورته معادله کې وضع کوو.

دویم مثال- د $y = v^u$ تابع مشتق لاسته راوړئ.

حل:

$$y = v^u \Rightarrow Lny = Lnv^u \Rightarrow (Lny)' = (uL.nv)' \Rightarrow \frac{y'}{y} = u'Lnv + u(Lnv)'$$
$$\Rightarrow (u'Lnv + u\frac{v'}{v'})y$$
$$y' = (u'Lnv + u\frac{v'}{v})v^u$$

د نسبتي توابعو مشتق د مشتق متحول

کله چې زموږ تابع یوه نسبتي تابع ورکړل شوې وي او د هغې مشتق پیداکوو، د مشتق د پیداکولو لپاره له لاندې قاعدې څخه ګټه اخلو.

۱- که $y = \frac{1}{x}$ تابع ورکړل شوې وي، مشتق یې عبارت دی له:

ثبوت:

$$y'(x) = -\frac{1}{x^2}$$
$$y = \frac{1}{x} \Rightarrow y = x^{-1}$$
$$y'(x) = -1 \cdot x^{-1-1}$$
$$y'(x) = -x^{-2} \Rightarrow y'(x) = -\frac{1}{x^2}$$

(c) ketabton.com: The Digital Library

۲-که تابع $y=\frac{1}{x^n}$ شکل ولري، مشتق يې عبارت دی له:

$$y=\frac{1}{x^n}$$

$$y'=\frac{-n}{x^{n+1}}$$

لومړی مثال: د $y=\frac{1}{x^{10}}$ تابع مشتق پیدا کړئ!

$$y=\frac{1}{x^{10}}=x^{-10} \qquad y'(x)=\frac{-n}{x^{n+1}}$$

$$y'(x)=-10x^{-10-1} \Rightarrow y'(x)=-10x^{-11}$$

$$\Rightarrow y'(x)=\frac{-10}{x^{11}}$$

۳-که تابع $y=\frac{1}{(x^3+2x^2+6)}$ وي د دارنګه توابعو مشتق عبارت دی له:

حل:

$$y=\frac{1}{u} \Rightarrow y'=\frac{-u}{x^{n+1}}$$

$$y=\frac{1}{(x^3+2x^3+6)} \Rightarrow y'=\frac{-(3x^2+4x)}{(x^3+2x^3+6)^2}$$

٤- هر کله چې $y=\frac{1}{x^n}$ تابع وي، د هغو توابعو مشتق عبارت دی له:

$$y'(x)=\frac{-nu'}{u^{n+1}}$$

مثال: د $y=\frac{1}{(x^3+2x^2+6)}$ تابع مشتق محاسبه کړئ!

حل:

$$y=\frac{1}{(4x^5+6x^2+12)^{12}}$$

$$u=(4x^5+6x^2+12)$$

$$u'(x)=20x^4+12x$$

$$y'(x)=\frac{-nu}{u^{n+1}}$$

$$y'(x)=\frac{-12(20x^4+12x)}{(4x^5+6x^2+12)^{13}}$$

(c) ketabton.com: The Digital Library

دویم مشتقات او له هغې پورته

په پورته مثالونو کې موږ یواځې د ورکړل شوو توابعو اول مشتق د مشتق نیونې له روشونو نه په ګټه اخیستو او د هغو د قاعدو په کارونې خپل سوالونه حل کړي او اوس د دویم مشتق دپیداکولو لپاره او له هغې پورته هم له قاعدو څخه چې په پورته ذکر شوو توابعو کې د مشتق نیونې په خاطر ترې ګټه اخیستل شوې وه هم دګټې اخیستو وړ ګرځي، داسې چې مخکې ذکر شوي د تابع اول مشتق ورکړل شوی وي، د مربوطه منحني په میلان کې له تغیر نه ګټه اخیستل شوې او د دویم مشتق څخه د مربوطه منحني په میلان کې ګټه اخلو او په ورکړل شوې تابع کې دویم مشتق د تغیر درجه ښیي.

د مثال په توګه: که یوه تولیدي تابع ورکړل شوې وي د دې تابع لومړی مشتق په مجموعي تولید کې نسبي تغیر ښیي، چې د نهایي تولید یا مؤلدیت په نوم یادېږي او د ذکر شوې تابع دویم مشتق په مؤلدیت کې زیاتوالی ښیي.

$$y = 4x^2 + 12x$$
$$y' = 8x + 12$$
$$y' = 8$$

د $y = 4x^2 + 12x$ تابع د مشتق غوندې یې محاسبه کړئ!

او همدارنګه باید وویل شي چې د یوې تابع مشتق د یوې نوې تابع په حیث کېدای شي د مشتق نیونې وړ وي، د تابع د مشتق مشتق دویمه مرتبه مشتق نومېږي او په همدې ډول تابع کېدای شي څو ځلې او حتی لایتناهي ځلې د مشتق نیونې وړ وي او دارنګه مشتقات په لاندې ډول ښودل کېږي.

تابع	$y = f(x)$
لومړی مشتق	$y' = \frac{dy}{dx} = f'(x)$
دویم مشتق	$y'' = \frac{d^2y}{dx^2} = f''(x)$
درېیم مشتق	$y''' = \frac{d^3y}{dx^3} = f'''(x)$
n ام مشتق	$y^{(n)} = \frac{d^ny}{dx^n} = f^n(x)$

(c) ketabton.com: The Digital Library

مثال: د لاندې توابعو اول، دویم، درېیم او څلورم مشتق لاسته راوړئ!

$$a)\ y = ax^3 + bx^2 + cx + d$$
$$y' = 3ax^2 + 2bx + c$$
$$y'' = 6ax + 2b$$
$$y''' = 6a$$
$$y^{(4)} = 0$$

$$b)\ y = 2x^4 + 5x^3 + 6x^2 + 2x + 12$$
$$y' = 8x^3 + 15x^2 + 12 + 2$$
$$y'' = 24x^2 + 30x + 12$$
$$y''' = 8x + 30$$
$$y^{(4)} = 48$$
$$y^{(5)} = 0$$

$$c)\ \begin{cases} y = \sin x, y' = \cos x \\ y'' = -\sin x, y''' = -\cos x \\ y^{(4)} = \sin,... \end{cases}$$

$$c)\ y = 6x^5 + 4x^3 + 5x^2 + 10x + 6$$
$$y' = 30x^4 + 12x^2 + 10x + 10$$
$$y = 120x^3 + 12x^2 + 10$$
$$y'' = 360x^2 + 24x$$
$$y^{(4)} = 36x^2 + 24$$
$$y^{(5)} = 720x$$
$$y^{(6)} = 0$$

د دویمو او له هغې نه د پورته مشتق قواعد هر کله چې د u او v توابع د n ام څلې مشتقاتو لرونکې وي نو:

(c) ketabton.com: The Digital Library

$$1)(\lambda u(x))^{(n)} = \lambda u^{n}(x)$$
$$2)(u+v)^{(n)} = u^{(n)} + (v)^{n}$$
$$3)(u.v)' = uv' + v'u$$
$$4)(u.v)'' = u''v + 2u'v' + uv''$$
$$5)(u.v)''' = u'''v + 3u''v' + 3u'v'' + uv'''$$
$$6)(u.v)^{(4)} = u^{(4)}v + 4u'''v + 6u''v'' + 4u'v''' + uv^{(4)}$$
$$(u.v)^{(n)} = u^{(n)}v + \begin{bmatrix} n \\ 1 \end{bmatrix} u^{n-1}v' + \begin{bmatrix} n \\ 2 \end{bmatrix} u^{n-2}v'' + \begin{bmatrix} n \\ 3 \end{bmatrix} u^{n-3}v'' + \ldots + uv^{(n)}$$

مثال: دویم مشتق له $y = e^{\alpha}.x^{2}$ تابع څخه په لاس راوړئ!

$$y = e^{ax}.x^{2}$$
$$y' = (e^{ax})'.x^{2} + e^{ax}(x^{2})^{2} = ae^{ax}.x^{2} + 2e^{ax}.x$$
$$y'' = (e^{ax})''.x^{2} + 2(e^{ax})'.(x^{2})' + e^{ax}(x^{2})''$$
$$y'' = a^{2}e^{ax}.x^{2} + 4ae^{ax}x + 2e^{ax}$$
$$\Rightarrow y = e^{ax}.x^{2} \Rightarrow y'' = a^{2}e^{ax}.x^{2} + 4ae^{ax} + 2e^{ax}$$

(c) ketabton.com: The Digital Library

د دویم څپرکي پوښتنې

له قاعدو نه په ګټه اخیستو سره د لاندې توابعو مشتق پیداکړئ!

1) $f(x)=x^4$

2) $f(x)=3x+4$

3) $y=\frac{1}{x^{10}}$

4) $y=\sqrt{x}$

5) $f(x)\frac{1}{8}x^8+3x^4-8$

6) $f(x)=2x^5-8x^3$

له تعریف نه په ګټه اخیستو د لاندې توابعو مشتق لاسته راوړئ!

7) $y=2x^3+4$

8) $f(x)=x^3-9$

9) $h(x)=x^4$ $\quad h'(x)=?$

10) $f(x)=4x^2-6$

11) $f(x)=\frac{1}{x}$

12) $f(x)=\sqrt[3]{x}$

13) $f(x)=\frac{1+x}{1-x}$

د لاندې الجبري توابعو مشتق په لاس راوړئ!

14) $y=x^3+2x^2+3x+4$

15) $y=x^4+3x^2$

16) $f(x)=\sqrt{x^2+1}$

17) $y=\frac{x}{\sqrt{2x-1}}$

18) $y=\frac{1+\sqrt{x}}{1-\sqrt{x}}$

19) $y=\sqrt{6x+8}$

د مثلثاتي توابعو مشتقات لاسته راوړئ!

20) $y=2\sin x-3\cos x$

21) $y=4\cos^2 x$

22) $y=2\sin^3 x$

23) $y=\tan x+\cot x$

24) $y=2x\tan x$

25) $y=2x\cot x$

26) $y=Log x$

27) $y=Log(3x+1)$

28) $y=Ln(x^3+x^2)$

د لاندې توابعو مشتق د لوګارتم په مرسته پیداکړئ!

29) $y=x^{x^3}$

30) $y=x^{\sin x}$

31) $y=(1+x)^3(2x+1)^2(9x-9)$

32) $y=L0g(\sin 3x)$

33) $y=Log 4x$

34) $y=Ln(x^2+2)$

35) $4x^3+4x^2$

36) $y=5x^2+6x$

37) $y=x^4+2x^3+4x^2+5x$

(c) ketabton.com: The Digital Library

درپیم څپرکی

قسمي، ترکیبي او کلي مشتق نیونه

ټولیزه موخه

لوستونکي به په سمه توګه قسمي، ترکیبي او کلي مشتق نیونه درک کړي او له اصولو او قواعدو به سمه ګټه واخلي.

د زده کړې موخې: د دې څپرکي په پای کې به لوستونکي:

۱-مشتق تعریف او اړونده سوالونه حل کړای شي.

۲- قسمي مشتقات تعریف او قواعد یې درک کړي.

۳- دویم قسمي مشتقات تعریف او قواعد یې درک کړي.

٤- کلي مشتقات تعریف او د هغې مربوطه سوالونه حل کړي.

٥- له قسمي، دویم قسمي مشتقاتو نه ګټه اخیستل او د مشتقاتو حل به لوستونکي درک کړي او د هغې په کارونه به پوه شي.

قسمي مشتقات

څو متحوله تابع او قسمي مشتقات د اقتصادي ریاضي له مهمو او اساسي مسایلوڅخه دي، تر اوسه مو د توابعو مفاهیم، لمټ او مشتق مطالعه کړل، چې یواځې د یو مستقل متحول لرونکي وو، یعنې توابعو په عمومي توګه $y=f(x)$ شکل درلود.

د دارنګه توابعو د مشتق له قیمت نه په ګټه اخیستو یا یو د مشتق له قواعدو څخه ګټه اخلو مشتق یې پیداکوو او اوس هغه توابع تر مطالعې لاندې نیسو، چې امکان لري په ځینو حالاتو کې یو تابع د یوه ترلې متحول د دوه او یا څو مستقلو متحولونو په عوض وي، یعنې $u=f(x,y)$ او $u=f(x,y,z)$ او نور چې دارنګه تابع دوه متحوله، درې متحوله او نور نومېږي.

(c) ketabton.com: The Digital Library

مثلاً:

1) $z = 4x + 6y - 10$

2) $z = \dfrac{xy}{x^2 + y^2}$

3) $u = 2x^2 - y^2 + xyz + 3z^2$

4) $z = f(x_1, x_2, x_3, x_4 .... x_n)$

د (۱) او (۲) سوالونو په اړه د z تابع دوه متحوله او ۳ د u تابع درې متحوله او ۴ مثال باید وویل شي، چې په دې ځای کې z د تابع متحول $(x_1, x_2, x_3, x_4 .... x_n)$ مستقل متحولین وي او د څو متحوله تابع مشتق له متحولینو څخه یوه ته په کتو په داسې حال کې ډېر له هغې څخه ثابت عددونه فرض شي نظر هماغه متحول ته په کتو د تابع د قسمي مشتق په نوم یادېږي او څو متحوله توابع کېدای شي د بیلابېلو مرتبو د قسمي مشتقاتو لرونکې نظر هر مربوط متحول ته وي، داچې د دوه متحوله تابع قسمي مشتقات z=f(x,y)په لاندې ډول لیکو

$$\frac{dz}{dx} = fx(x, y)$$

$$\frac{dz}{dy} = fy(x, y)$$

همدارنګه د z قسمي مشتقات نظر x_1 ته نیسو، نظر x_2 او اخر x_3 پیدا کوو، لرو چې:

$$\frac{dz}{dx_{1f(x_1)}} = zx_1 \Rightarrow f(x_1)$$

$$\frac{dz}{dx_{2f(x_2)}} = zx_2 \frac{dz}{dx_3 f(x_3)} = zx_3$$

لومړی مثال- قسمي مشتقات یې پیداکړئ!

$$z = 6x^2 + 8xy + 6y^2$$

$$\frac{dz}{dx} = 12x + 8y$$

$$\frac{dz}{dy} = 8x9 + 12y$$

(c) ketabton.com: The Digital Library

دویم مثال: قسمي مشتق يې پيداکړئ!

$$z = 6x^{12}y^8 + 4x^2y + 24xy^2$$

$$\frac{dz}{d(x)} = zx = 72x^{11}y^8 + 4xy + 24y^2$$

$$\frac{dz}{d(y)} = zy = 48x^{12}y^7 + 4x^2 + 48xy$$

دریيم مثال: قسمي مشتقات يې پيداکړئ چې:

$$z = \frac{4x^2}{3y^2}$$

$$zx = \frac{8x(3y^2) - 0(4x^2)}{(4y^2)^2} = \frac{24xy^2}{16y^4}$$

څلورم مثال:

$$z = 4x3y3 + 12x2y2 + 4y4$$

$$\frac{dz}{dx} = zx = 12x^2y^3 + 24xy^4$$

$$\frac{dz}{dy} = zy = 12x^3y^2 + 24x^2y + 16x^3$$

پنځم مثال- د درې متحوله تابع قسمي مشتقات په لاندې ډول دي:

$$u = x^2y^2z + 4x - 2y + z + 6$$

$$\frac{du}{dx} = 2xy^2z + 4$$

$$\frac{du}{dy} = 2x^2yz - 2$$

$$\frac{du}{dz} = x^2y^2 + 1$$

شپږم مثال- د $f(x,y)=x^2y-5xy^2+4xy$ تابع قسمي مشتق په لاندې ډول دي:

$$f(x) = \frac{du}{dx} = 2xy - 5y^2 + 4y$$

$$\frac{df}{\partial y} = f(y) = x^2 - 10xy + 4x$$

دویم قسمي مشتقات او ترکيبي مشتقات

۱-دویم قسمي مشتقات :کله چې وغواړو اول قسمي مشتقونه د دویم ځل لپاره نظر هماغه متحول ته مشتق ونیسو د ذکر شوې تابع قسمي دویم مشتقونه نظر هماغه متحول ته په لاس راځي، دویم قسمي مشتقات په تابع کې له تغیر څخه عبارت دي نظر په وارد شوي تغیر په مستقل متحول کې یې تر بحث لاندې نیسو.

(c) ketabton.com: The Digital Library

۲-ترکیبي مشتقات: که موږ قسمي مشتقات نظر x متحول ته یو ځل بیا نظر y متحول مشتق و نیسو، ویلای شو چې د تابع ترکیبي مشتق په لاس راغلی.

او هر کله چې د f(x,y) تابع په (x,y) نقطه کې له تعریف ناحیې څخه د قسمي مشتقاتو لرونکې وي د $\frac{\partial f}{\partial x},\frac{\partial f}{\partial y}$ مشتقات هم توابع د x او y دي او کېدای شي د لاندې قسمي مشتقاتو لرونکې وي.

$$\frac{\partial}{\partial x}(\frac{\partial f}{\partial x})=\frac{\partial^2 f}{\partial x^2}=f_{xx}$$

$$\frac{\partial}{\partial y}(\frac{\partial f}{\partial y})=\frac{\partial^2 f}{\partial y^2}=f_{yy}$$

$$\frac{\partial}{\partial x}(\frac{\partial f}{\partial y})=\frac{\partial^2 f}{\partial x\partial y}=f_{xy}$$

$$\frac{\partial}{\partial y}(\frac{\partial f}{\partial x})=\frac{\partial^2 f}{\partial y\partial x}=f_{yx}$$

که f_{yx},f_{xy} توابع متمادي وي په هغه صورت کې $f_{xy}=f_{yx}$ دی.

لومړی مثال: د لاندې تابع اول قسمي مشتقات، دویم او ترکیبي مشتق پیداکړئ!

$$z=6x^2+8xy-8y^2$$

$$z_x=12x+8y$$

$$z_{xx}=12x$$

$$z_y=8x-16y$$

$$z_{yy}=-16$$

$$z_{xy}=8$$

$$z_{yx}=8$$

ترکیبي مشتق

دویم مثال- دوه متحوله تابع $z=x^4y^3+3x^2y^2-2xy+2$ محاسبه کړئ!

$$\frac{\partial z}{\partial x}=4x^3y^3+3xy^2-2y$$

$$\frac{\partial^2 z}{\partial x^2}=12x^2y^3+6y^2$$

$$\frac{\partial^2 z}{\partial x\partial y}=12x^3y^2+12xy-2$$

$$\frac{\partial z}{\partial y}=3x^4y^2+6xy-2x$$

$$\frac{\partial^2 z}{\partial y^2}=6x^2y+6x^2$$

$$\frac{\partial^2 z}{\partial y\partial x}=12x^3y^2+12xy-2$$

(c) ketabton.com: The Digital Library

په پورته مثال کې لیدل کېږي چې $\frac{\partial^2 z}{\partial y \partial x} = \frac{\partial^2 z}{\partial y \partial x}$ دی

درېیم مثال- د $z = x^2 y + y^3$ تابع اول او دویم ځلي مشتقات دا رنګه پیداکوو.

$$\frac{\partial f}{\partial x} = 2xy \frac{\partial f}{\partial y} = x^2 + 3y^2$$

$$\frac{\partial^2 f}{\partial x^2} = 2y \frac{\partial^2 f}{\partial y^2} = 6y$$

$$\frac{\partial^2 f}{\partial x \partial y} = 2x \frac{\partial^2 f}{\partial y \partial x} = 2x$$

$$\Rightarrow \frac{\partial^2 f}{\partial x \partial y} = \frac{\partial^2 f}{\partial y \partial x} = 2x$$

څلورم مثال- فرض کړئ چې د یوې تصدۍ د تولید تابع د لاندې شکل لرونکې وي.

$Q = A.k^{\frac{1}{4}}.L^{\frac{3}{4}}$ په پورته تابع کې Q د تولید مجموعي مقدار دی.

وسطي تولید دk په ارتباط

$$\Rightarrow Q = A(\frac{L}{K})^{\frac{3}{4}}$$

$$Q = \frac{Q}{L} Ak^{\frac{1}{4}}.L^{\frac{3}{4}} \Big/ L =$$

$$= Ak^{\frac{1}{4}}.L^{-1}.L^{\frac{3}{4}} = A.k^{\frac{1}{4}}.L^{-\frac{1}{4}} = A(\frac{L^{\frac{3}{4}}}{K^{\frac{3}{4}}})$$

$$= A \cdot \frac{k^{\frac{1}{4}}}{L^{\frac{1}{4}}} = A(\frac{K}{L})^{\frac{1}{4}}$$

A د تکنالوجۍ ضریب kد تولید عامل لکه د تولید د وسایلو پانګه د تولید بل عامل، لکه کار او طاقت k اوL نه یواځې د تولید د عواملو نماینده ګي کوي، بلکې د عاید په توزیع کې هم ترې ګټه اخیستل کېږي، لاندې مطالب هدف دی.

(c) ketabton.com: The Digital Library

۱- تولید یا د تولید د عواملو وسطي مؤلدیت.

۲- نهایي تولید یا د تولید د عواملو نهایي تولید.

۳- په تولید کې د تغیر درجه یا د عواملو مؤلدیت.

٤- په نهایي مؤلدیت کې د تغیر درجه یو له عواملو ده، که چېرې په یوه وخت تغیر وکړي.

نوټ:

$$Q = A.k^{\frac{1}{4}}.L^{\frac{3}{4}}$$

کارگر =L

ماشین=K

تولید =Q

د لومړي جز ځواب:

$$Q = \frac{Q}{K} = A.k^{\frac{1}{4}}.L^{\frac{3}{4}} \Big/ K =$$

$$= A.k^{\frac{1}{4}}.K^{-1}.L^{\frac{3}{4}} = A.k^{\frac{-3}{4}}.L^{\frac{3}{4}} = A(\frac{L^{\frac{3}{4}}}{K^{\frac{3}{4}}})$$

د هغې حل په صفحه مخامخ لیکل شوی.

د L په ارتباط وسطي تولید

۲-نهایي تولید: مخکې له دې چې دویم جز حل کړو، نهایي تولید دا رنګه تعریفوو:

نهایي تولید د مجموعي تولید په مقدار کې له هغه تغیر څخه عبارت دی، چې د یو وا حد تغیر په اثر په مربوطه عامل کې منځ ته راځي، خو که چېرې زیات عوامل ثابت پاتې وي.

د ریاضي له مخې د تولید د تابع له قسمي مشتق څخه عبارت نظر د K په څېر عامل ته که چېرې بل عامل په تابع کې پاتې شوی وي.

یعنې:

(c) ketabton.com: The Digital Library

د درېیم جز ځواب.

$$\frac{dQ}{dQ} = Q_k = \frac{1}{4} AK^{\frac{1}{4}-1}.L^{\frac{3}{4}}$$

$$= \frac{1}{4} AK^{\cdot -\frac{3}{4}} L^{\frac{3}{4}} = \frac{1}{4} A(\frac{L^{\frac{3}{4}}}{K^{\frac{3}{4}}}) = \frac{A}{4}(\frac{L}{K})^{\frac{3}{4}}$$

$$\frac{dQ}{dL} = Q_L = \frac{3}{4} AK^{\frac{1}{4}} L^{\frac{3}{4}-1} = \frac{3}{4} AK^{\frac{1}{4}}.L^{-\frac{1}{4}}$$

$$= \frac{3}{4} A.K^{\frac{1}{4}} \Big/ L^{\frac{3}{4}-1} = \frac{3}{4} A(\frac{K}{L})^{\frac{1}{4}}$$

$$Q_K = \frac{1}{4} AK^{\frac{-3}{4}}.L^{\frac{3}{4}}$$

$$Q_{KK} = -\frac{3}{4}(\frac{1}{4}) AK^{\frac{-3}{4}-1}.L^{\frac{3}{4}} = -\frac{3}{4}(\frac{1}{4}) AK^{-\frac{7}{4}}.L^{\frac{3}{4}}$$

$$= -\frac{3}{16} AK^{-\frac{7}{4}}.L^{\frac{3}{4}} = \frac{-3}{16} A(K^{-\frac{7}{4}}.L^{\frac{3}{4}}) = -3AL^{\frac{3}{4}} \Big/ 16K^{\frac{7}{4}}$$

$$\Rightarrow Q_{KK} = -\frac{3A}{16}(\frac{L^{\frac{3}{4}}}{K^{\frac{7}{4}}})$$

$$Q_L = \frac{3}{4} AK^{\frac{1}{4}}.L^{\frac{-1}{4}}$$

$$Q_{LL} = -\frac{1}{4}(\frac{3}{4}) AK^{\frac{1}{4}}.L^{-\frac{1}{4}-1} = -\frac{1}{4}(\frac{3}{4}) AK^{\frac{1}{4}}.L^{-\frac{5}{4}}$$

$$= -\frac{3}{16} AK^{\frac{1}{4}} \Big/ L^{\frac{5}{4}}$$

د څلورم جز ځواب

د تابع ترکیبي مشتق دا رنګه پیداکوو، دا چې ترکیبي مشتق مثبت وي په دې دلالت کوي، چې په نهایي مؤلدیت کې تغیر او ټول عوامل د متحول مربوط وي، مثبت دي فلهذا مخ په زیاتېدو دي.

(c) ketabton.com: The Digital Library

$$Q_K = \frac{1}{4} AK^{\frac{-3}{4}}.L^{\frac{3}{4}}$$

$$Q_L = \frac{3}{4} AK^{\frac{1}{4}} L^{\frac{-1}{4}}$$

$$Q_{KL} = (\frac{1}{4})(\frac{3}{4}) AK^{\frac{-3}{4}}.L^{\frac{3}{4}-1} = \frac{3}{16} AK^{\frac{-3}{4}}.L^{-\frac{1}{4}}$$

$$= 3A/16\, AK^{\frac{3}{4}}.L^{\frac{1}{4}}$$

$$Q_{KL} = \frac{1}{4}(\frac{3}{4}) K^{\frac{1}{4}-1}.L^{-\frac{1}{4}} = \frac{3}{16} AK^{\frac{-3}{4}}.L^{-\frac{1}{4}}$$

$$\Rightarrow = \frac{3A}{16K^{\frac{3}{4}}.L^{\frac{1}{4}}}$$

پنځم مثال- هر کله چې د $Q = 4K^{\frac{1}{3}}.L^{\frac{2}{3}}$ تصدیٔ د تولید تابع وي.

۱- د K او L عامل وسطي تولید محاسبه کړئ!

۲- نهایي تولید یې محاسبه کړئ!

۳- په تولید کې د تغیر درجه محاسبه کړئ!

٤- په نهایي مؤلدیت کې د تغیر درجه محاسبه کړئ!

د k عامل وسطي تولید $\frac{Q}{K} = 4K^{\frac{1}{3}} L^{\frac{2}{3}} / K$ = L وسطي تولید عامل

$$= 4K^{\frac{1}{3}}.K^{-1}.L^{2/3} = 4K^{\frac{-2}{3}} L^{2/3} = 4L^{2/3} / K^{\frac{2}{3}}$$

$$\Rightarrow = 4(\frac{L}{K})^{\frac{3}{4}}$$

$$= Q/L = 4K^{\frac{1}{3}}.L^{\frac{2}{3}} / L = 4K^{\frac{1}{3}} L^{-1} L^{\frac{2}{3}}$$

$$= 4K^{\frac{1}{3}} L^{\frac{-1}{3}} = 4K^{\frac{1}{3}} / L^{\frac{1}{3}} \Rightarrow QL = 4(\frac{K}{L})^{\frac{1}{3}}$$

(c) ketabton.com: The Digital Library

د دویم جز ځواب تر کیبي مشتق

$$Q = 4K^{\frac{1}{3}}L^{\frac{2}{3}}$$

$$dQ/dK = 4(\frac{1}{3})K^{\frac{1}{3}-1}L^{\frac{2}{3}} = \frac{4}{3}K^{\frac{-2}{3}}L^{\frac{2}{3}}$$

$$QK = \frac{4}{3}L^{\frac{2}{3}} \Big/ K^{\frac{2}{3}} = \frac{4}{3}(\frac{L}{K})^{\frac{2}{3}}$$

$$QK = \frac{4}{3}(\frac{L}{K})^{\frac{2}{3}}$$

$$Q = 4K^{\frac{1}{3}}L^{\frac{2}{3}}$$

$$dQ/dL = \frac{2}{3}(4)K^{\frac{1}{3}}L^{\frac{2}{3}-1} = \frac{8}{3}K^{\frac{1}{3}}L^{\frac{-1}{3}}$$

$$= \frac{8}{3}(K^{\frac{1}{3}} \Big/ L^{\frac{+1}{3}}) = \frac{8}{3}(\frac{K}{L})^{\frac{1}{3}}$$

$$\Rightarrow QL = \frac{8}{3}(\frac{K}{L})^{\frac{1}{3}}$$

د درپیم جز ځواب

$$QK = \frac{4}{3}K^{\frac{-2}{3}}L^{\frac{2}{3}}$$

$$QL = \frac{8}{3}K^{\frac{1}{3}}L^{-\frac{2}{3}}$$

$$QKK = \frac{4}{3}(\frac{-2}{3})K^{\frac{-2}{3}-1}L^{\frac{2}{3}} = -\frac{8}{9}K^{\frac{-5}{3}}L^{\frac{2}{3}}$$

$$QKK = -8L^{\frac{2}{3}} / 9K^{\frac{5}{3}}$$

$$QLL = \frac{8}{3}(-\frac{1}{3})K^{\frac{1}{3}}L^{\frac{-1}{3}-1} = -\frac{8}{3}K^{\frac{1}{3}}L^{\frac{-4}{3}} = -8K^{\frac{1}{3}} \Big/ 9L^{\frac{4}{3}} = QLL = \frac{-8K^{\frac{1}{3}}}{9L^{\frac{4}{3}}}$$

$$QK = \frac{4}{3}K^{\frac{-2}{3}}L^{\frac{2}{3}}$$

$$QKL = \frac{2}{3}(\frac{4}{3})K^{\frac{-2}{3}}L^{\frac{2}{3}-1} = \frac{8}{9}K^{\frac{-2}{3}}L^{-\frac{1}{3}}$$

$$QL = \frac{8}{3}K^{\frac{1}{3}}.L^{-\frac{1}{3}}$$

$$QLK = \frac{1}{3}(\frac{8}{3})K^{\frac{1}{3}-1}.L^{-\frac{1}{3}} = \frac{8}{3}K^{\frac{-2}{3}}L^{-\frac{1}{3}}$$

(c) ketabton.com: The Digital Library

باید وویل شي چې د ترکیبي مشتقونو ضریبونه مثبت دي، فلهذا تابع مخ په زیاتېدو ده.

کلي مشتقات

په قسمي مشتق نیونه کې مو د تابع مشتق، نظر یوه متحول ته نیوه او نور متحولونه مو ثابت فرض کړل.

ولې په کلي مشتق نیونه کې ټول متحولونه په یو وخت تغیر کوي، د مشتق نیونې په مبحث کې مو ولیدل چې که y=f(x) تابع وي.

او د هغې تابع مشتق $dy/dx = f(x)$ شکل لري او که د معادلې دواړه خواوې په dx ضرب کړو معادله لاندې شکل غوره کوي dy=f(x)dx چې دا افاده د کلي مشتق مفهوم لري ، کلي مشتق نیونه هغه وخت د بحث وړ کېږي، چې تابع د څو مستقلو متحولینو لرونکې وي او موږ په خپل ځای کې توابع تر مطالعې لاندې نیسو.

چې د دوه ډوله مستقلو متحولینو لرونکې وي او د دې توابعو کلي مشتق عبارت دی د تابع له قسمي مشتقاتو د ضرب د حاصل له مجموعې سره او د هغې په مربوطه متحول کې د وارد شوي تغیر سره.

فرضاً که تابع لاندې شکل ولري y = f(u v w) چې په هغې کې u,v,w د بل متغیر تابع لکه د x ده، چې مرکبه تابع نومېږي او د دارنګه توابعو مشتق عبارت دی له:

$$y' = f'u.ux + f'v.vx + f'w.wx$$

یا په بل عبارت

$$\frac{dy}{dx} = \frac{\partial f}{\partial u}.\frac{\partial u}{\partial x} + \frac{\partial f}{\partial v}.\frac{\partial v}{dx} + \frac{\partial f}{dw}.\frac{\partial w}{dx}$$

یاپه بل عبارت په اقتصادي مسایلو کې هغه وخت بې نهایت ارزښت لري او په t ښودل کېږي، کولای شو له دې فورمول نه ګټه واخلو، یعنې که u=f(x,y,z) په داسې حال کې چې z,y,x توابع له t متحول څخه

$$\frac{du}{dt} = \frac{\partial u}{\partial x}.\frac{dx}{dt} + \frac{\partial u}{\partial y}.\frac{dy}{dt} + \frac{\partial u}{dz}.\frac{dz}{dt}$$

او که د مرکبو توابعو مشتق د دوه میانجي مستقل متحولونو لرونکی وي . Z=f(u,v) په داسې حال کې چې u=f(x,y) او v=Q(x,y) وي x,y مستقل وي؛ نو د z تابع مشتقات نظر x اوy متحول ته عبارت دي له:

(c) ketabton.com: The Digital Library

$$\frac{dz}{dx}=\frac{\partial z}{\partial u}.\frac{du}{dx}+\frac{\partial z}{\partial v}.\frac{\partial y}{\partial x}$$
$$\frac{\partial z}{dy}=\frac{\partial z}{\partial u}.\frac{\partial u}{\partial y}+\frac{\partial z}{\partial v}.\frac{\partial v}{\partial y}$$

لومړی مثال: د لاندې مرکبې تابع مشتق محاسبه کړئ!

دا چې

$$y=2u^2-4uv-5v^2$$
$$u=2x^2-2x$$
$$v=x^3+x$$
$$u'x=4x-2$$
$$v'x=3x^2+1$$
$$y'=4uu'-4u'v-4uv'-10vv'$$
$$y'=4(2x^2-2x)(4x-2)-4(4x-2)(3x^2+1)$$
$$-4(2x^2-2x)(3x^2+1)-10(x^3+x)(3x^2+1)$$

دویم مثال: وښایئ چې $z=\varphi(x^2+y^2)$ تابع لاندې معادله صدق کوي!

$$y\frac{\partial z}{\partial x}-x\frac{\partial z}{\partial y}=0$$

حل: د φ تابع (فی) د دوه مستقلو متحولو x.اوy د میانجي متحول په واسطه $t=x^2+y^2$ وي نو:

$$\frac{\partial z}{\partial x}=\frac{\partial z}{\partial t}.\frac{\partial t}{\partial x}=\varphi'(x^2+y^2)2x$$
$$\frac{\partial z}{\partial y}=\frac{\partial z}{\partial t}.\frac{\partial t}{\partial y}=\varphi'(x^2+y^2)2y$$
$$\Rightarrow y\frac{\partial z}{\partial x}-x\frac{\partial z}{\partial y}$$
$$\Rightarrow \varphi'(x^2+y^2)2xy-\varphi'(x^2+y^2)2xy=0$$
$$\Rightarrow \frac{\partial z}{\partial x}-x\frac{\partial z}{\partial y}=0$$

باید یادونه وشي چې اقتصادي ریاضي تر ډېره له پخوا راهسې له اقتصادي مسایلو تولید، عرضه، تقاضا، توزیع، متاع، اجناس، وخت، کار او نورو سره سروکار لري، له دې سببه

(c) ketabton.com: The Digital Library

د توابعو د کلي مشتق د پیداکولو لپاره له لاندې فورمول نه ډېره ګټه اخیستل کېږي او فورمول په لاندې شکل تشریح کوو، فرضاًکه تابع د لاندې شکل لرونکې وي.

$$z = f(x, y)$$

$$\frac{dz}{dx} = \frac{dz}{dx}.dx + \frac{dz}{dy}.dy...\mathrm{I}$$

$$dz = zx.dx + zy.dy...\mathrm{I}$$

۱-که تابع د تابع تابع شکل ولري، دا چې z د تابع په اوله مرحله کې د (x,y) متحول وي او په دویمه مرحله کې یو له مستقلو متحولو څخه تابع د بل مستقل متحول وي لکه z= f(x,y) داسې، چې y=f(x) وي په دې مرحله کې دz کلي مشتق نظر x ته او $\frac{dz}{dx}$ محاسبه کېږي او د I معادلې دواړه خواوې په dx تقسیموو، معادله لاندې شکل اختیاروي.

$$\frac{dz}{dx} = zx.\frac{dx}{dx} + zy.\frac{dy}{dx}.dx.....1$$

$$\frac{dz}{dx} = zx + zy\frac{dy}{dx}.....2$$

۲-که z=f(x,y) وروسته د x له له طریقه یواځې د y تابع وي، د z کلي مشتق نظر Y ته دارنګه محاسبه کېږي، یعنې $\frac{d}{dz}$ او په اول قدم کې z = f(x,y) وروسته x=f(y) اوس د I معادلې دواړه خواوې په dy تقسیموو، معادله لاندې شکل اختیاروي.

$$\frac{dz}{dy} = zx\frac{dx}{dy} + zy.\frac{dy}{dy}$$

$$\frac{dz}{dy} = zx\frac{dx}{dy} + zy...3$$

۳-په درېیم حالت کې کولای شي د z تابع اول د y,x تابع او دویم د y,x له طریقه هر یو د بل متحول وي، داچې په اقتصادي مسایلو کې د (t) وخت عامل اساسي رول لري، په دې حالت کې z د y,x تابع او وروسته د y,x له طریقه د t تابع وي لکه:

z=f(x,y) و X=f(t)

Y=f(t)

داچې د z کلي مشتق نظر t ته عبارت له $\frac{dz}{dt}$ محاسبه کېږي د I معادلې دواړه خواوې په dt تقسیموو اول فورمول لاندې شکل غوره کوي.

(c) ketabton.com: The Digital Library

$$\frac{dz}{dt}=\frac{dz}{dx}.\frac{dx}{dt}+\frac{dz}{dy}.\frac{dy}{dt}$$
$$\frac{dz}{dt}=zx.x(t)+zy.y(t)$$
$$\Rightarrow dz/dt\, zx.\frac{dx}{dt}+zy.\frac{dy}{dt}.....4$$

درییم مثال: د $z=6x^{\frac{2}{3}}.y^6$ تابع کلي مشتق محاسبه کړئ!

حل: اول فورمول ته په کتو لرو چې :

$$z=6x^{\frac{2}{3}}.y^6$$
$$dz=zxdx+zy.dy$$
$$dz=(\frac{2}{3})(6)(x^{\frac{2}{3}-1}y^6)dx+(36(x^{\frac{2}{3}}y^5)dy$$
$$dz=(\frac{12}{6})(x^{-\frac{1}{3}}y^6)dx+(36(x^{\frac{2}{3}}y^5)dy$$
$$dz=(2x^{-\frac{1}{3}}y^6)dx+(36(x^{\frac{2}{3}}y^5)dy$$

څلورم مثال: فرض کوو چې د یوه کارګر د عاید تابع عبارت له $z=9x^2y^2$ څخه وي، په دې تابع کې z خالص عاید x د کارګر د ورځې کار y د في ساعت کار مزد او لکه څنګه چې فرض کوو، چې د في ساعت کار مزد د تابع تابع د کارګر د کار د ساعت اندازه وي $y=x^2+3x-1$ په دې حالت کې د کارګر د تابع کلي مشتق پیداکړئ(د کار ګر په عاید کې تغیر په y اوx کې د وارد شوي تغیر په اثر یعنې کار په ساعت کې او د في ساعت کار مزد) څو دی.

حل: فورمول ته په کتو لرو چې:

$$\frac{dz}{dx}=zx+zy\frac{dy}{dx}$$
$$z=9x^2y^2\ \frac{dz}{dx}=18xy^2+18x^2y(2x+3)$$
$$y=x^2+3x-1=18xy^2+36x^3y+54x^2y$$
$$zx=18xy^2$$
$$zy=18x^2y\frac{dz}{dx}=18xy(y+2x^2+3x)$$
$$\frac{dy}{dx}=y'=2x+3$$

(c) ketabton.com: The Digital Library

۱- د y قیمت په لاسته راغلي ځواب کې وضع کوو

$$\frac{dz}{dx}=18xy^2+36x^3y+54x^2y$$

$$\frac{dz}{dx}=18(x^2+3x-1)+36x^3(x^2+3x-1)+54x^2(x^2+3x-1)^2$$

$$=18(x^2+3x-1)^2(x^2+3x-1)^2+36x^3+108x^4-36x^3+54x^4+162x^3-54x^2$$

$$=18x(x^4+3x^3-x^2+3x^5+9x^2-3x-x^2-3x+1)+36x^5+162x^4+126x^3-54x^2$$

$$=18x(x^4+6x^3+7x^2-6x+1)+36x^5+162x^4+126x^3-54x^2$$

$$=18x^5+108x^4+126x^3-108x^2+18x+36x^5+162x^4+126x^3-54x^2$$

$$=54x^5+270x^4+252x^3-162x^2+18x$$

۲

۳- کولای شو د پورته سوال ځواب دارنګه په لاس راوړو، چې د y قیمت په اصلي تابع کې وضع کوو او بیا نظر x ته د تابع مشتق نیسو.

$$z=9x^2(x^2+3x-1)^2=9x^2(x^2+3x-1)(x^2+3x-1)$$

$$z=9x^2(x^4+6x^3+6x+1)$$

$$z=9x^6+54x^5+63x^4-54x^3+9x^2$$

$$\frac{dz}{dx}=54x^5+270x^4+252x^3-162x^2+18x$$

پنځم مثال: فرض کوو چې د عرضې تابع د یوې متاع لپاره عبارت ده له $z=(4x+6y-1)^3$ په پورته مثال کې z د عرضې مقدار او تابع ده، x د متاع قیمت او y د تعویض د اشیاؤ قیمت وي، هر کله چې د اشیاؤ قیمت تعویضي او د تابع قیمت متاع $y=2x^2+8x$ وي، د اړونده متاع په عرضه کې کلي تغیرات د هماغې متاع د قیمتونو او اشیاوو په نظر کې نیولو سره عوض او محاسبه کړئ او د z کلي مشتق پیداکړئ!

حل:

$$z=(4x+6y-1)^3$$

$$y=2x^2+8x$$

$$\frac{dz}{dx}=zx\frac{dy}{dx}+zy.\frac{dx}{dx}$$

(c) ketabton.com: The Digital Library

$$\frac{dz}{dx}=3(4x+6y-1)^2(6)(4x+8)+3(4x+6y-1)^2(4)$$
$$=18(4x+8)(4x+6y-1)^2+12(4x+6y-1)^2$$
$$=(72x+144)(4x+6y-1)^2+12(4x+6y-1)^2$$
$$=(72x+144)(4x+6y-1)(4x+6y-1)+12(4x+6y-1)12(4x+6y-1)$$
$$=(72x+144)(16x^2+24xy-4x+24xy+36y^2-4x-6y-6y+1)$$
$$+12(16x^2+24xy-4x+24xy+36y^2-6y-4x-6y+1)$$
$$=(72x+144)(16x^2+48xy-8x+36y^2-12y+1)+$$
$$+12(16x^2+48xy-8x+36y^2-12y+1)$$
$$=1152x^3+3454x^2y-576x^2+2592xy^2-864xy+72x$$
$$+2304x^2+6912xy-1152x+5184y-1728y+144$$
$$+192x^2+576y-96x+432y-144y+12$$
$$=1152x^3+3456x^2y+1920x^2+2592xy^2+6048xy-1176x$$
$$+9350y+432y^2+156$$

٦مثال- که فرض کړو د متاع لپاره د عرضې تابع $z=(x^2+2xy+y^2)^2$ وي، ځکه د

$y=6x^2+1$

او $x=2$ $y=4$

حل:

$$\frac{dz}{dx}=zx\frac{dy}{dx}+zx.\frac{dx}{dx}$$
$$\frac{dz}{dx}=2(x^2+2xy+y^2)(2x+2y)(12x)+2(x^2+2xy+y^2)(2x+2y)$$
$$\frac{dz}{dx}=2(2^2+2.2.4+4^2)(2.2+2.4)(12.2)+2(2^2+2.2.4+4^2)(2.2+2.4)$$
$$=2(4+16+16)(4+8)(24)+2(4+16+16)(4+8)$$
$$=2(36)(12)(24)+2(36)(12)$$
$$=8640.24+8640=207360+8640=216000$$
$$\frac{dz}{dx}==216000$$

اووم مثال: فرض کوو چې د یوه کارګر د عاید تابع عبارت له $z=9x^2y^2$ څخه وي؛ نو په دې تابع کې z خالص عاید x د کارګر د ورځني کار ساعت y د کار د في ساعت مزد، همدارنګه فرض کوو چې د في ساعت کار مزد تابع د تابع د کارګر د کار د ساعتونو اندازه او لاندې شکل لري.

$$y=x^4+3x-1$$

(c) ketabton.com: The Digital Library

په دې حالت کې د کارګر د کار د تابع کلي مشتق محاسبه کړئ!
(د وارده تغیر په اثر د کارګر په عاید کې تغیر په x,y کې یعنې د کار په ساعت کې او د في ساعت کار مزد) څو دی؟

حل:

$$\frac{dz}{dx} = zx + zy\frac{dy}{dx}$$
$$z = 9x^2y^2$$
$$y = x^4 + 3x - 1$$
$$zx = 18xy^2$$
$$zy = 18x^2y$$
$$\frac{dy}{dx} = 4x^3 + 3$$
$$y'(x) = 4x^3 + 3$$
$$\frac{dz}{dx} = 18xy^2 + 18x^2y(4x^3 + 3)$$
$$= 18xy^2 + 72x^5y + 54x^2y$$
$$\Rightarrow \frac{dz}{dx} = 18xy^2 + 72x^5y + 54x^2y$$
$$\Rightarrow \frac{dz}{dx} = 18xy(y + 4x^3 + 3x)$$

پاسنی سوال کولای شو له دوه جهتو بررسي کړو:

1-د y قیمت په وروستي ځواب کې وضع کوو، لرو چې:

$$\frac{dz}{dx} = 18xy^2 + 72x^5y + 54x^2y$$
$$\frac{dz}{dx} = 18x(x^4 + 3x - 1)^2 + 72x^5(x^4 + 3x - 1)^2 + 54x^2(x^4 + 3x - 1)^2$$
$$= 18x(x^4 + 3x - 1)^2(x^4 + 3x - 1)^2 + 72x^9 + 216x^6 - 72x^5 + 54x^6 + 162x^3 - 54x^2$$
$$= 18x(x^8 + 3x^5 - x^4 + 3x^5 + 9x^2 - 3x - x^4 - 3x + 1) +$$
$$+ 72x^9 + 216x^6 - 72x^5 + 54x^6 + 162x^3 - 54x^2$$
$$= 18x^9 + 108x^6 - 36x^5 + 162x^3 - 108x^2 + 18x$$
$$+ 72x^9 + 216x^6 - 72x^5 + 54x^6 + 162x^3 - 54x^2$$
$$= 90x^9 + 378x^6 + 108x^5 + 324x^3 - 162x^2 + 18x$$
$$\Rightarrow \frac{dz}{dx} = 90x^9 + 378x^6 + 108x^5 + 324x^3 - 162x^2 + 18x$$

(c) ketabton.com: The Digital Library

۲-کولای شو د ذکر شوې تابع ځواب دارنګه لاسته را وړو، چې y په اصلي تابع کې وضع کوو، وروسته نظر x ته د تابع مشتق پیداکوو.

حل: دا چې $z = 9x^2y^2$ دی $y = x^4 + 3x - 1$ وي.

$$z = 9x^2(x^4 + 3x - 1)^2$$
$$z = 9x^2(x^4 + 3x - 1)(x^4 + 3x - 1)$$
$$z = 9x^2(x^8 + 3x^5 - x^4 + 3x^5 + 9x^2 - 3x - x^4 - 3x + 1)$$
$$z = 9x^2(x^8 + 6x^5 - 2x^4 + 9x^2 - 6x + 1)$$
$$z = 9x^{10} + 54x^7 - 18x^6 + 81x^4 - 54x^3 + 9x^2$$
$$\frac{dz}{dx} = 90x^9 + 378x^6 - 108x^5 + 324x^3 - 162x^2 + 18x$$

(c) ketabton.com: The Digital Library

د درېیم څپرکي پوښتنې:

۱- د لاندې توابعو قسمي مشتقات محاسبه کړئ!

$1) z = x^2 + y^2 + 5xy$

$2) z = 3x^2y^2 + 12xy^3 + 2y^4$

$3) z = (x^2 + y^2)^5$

$4) z = x^2 + 3x - 9$

۲- د لاندې توابعو اول او دویم قسمي مشتقونه او ترکیبي مشتق پیداکړئ!

$1) z = 8x^2 + 16xy - 24y^2$

$2) z = (4x^2 + 2y^2)$

۳- فرض کړئ چې د یوې تصدۍ د تولید تابع لاندې شکل لري:

$p = 8k^{\frac{1}{3}}L^{\frac{2}{3}}$

۱-د k د عامل په اړه وسطي تولید

۲- دL د عامل په اړه وسطي تولید

۳-نهایي تولید

٤- په تولید کې د تغیر درجه

٥- په مؤلدیتونو کې د تغیر درجه

پورتني پنځه جزه محاسبه کړئ!

٤- فرض کوو چې د یوه نجار د عاید تابع عبارت له $z = 9x^2y^2$ وي.

۱- z خالص عاید ۲- x د نجار ورځني کاري ساعتونه ۳- y د في ساعت کار مروج مزد سربېره پر دې فرض کوو، چې د في ساعت کار مزد د نجار د کاري ساعت د اندازې تابع وي، یعنې $y = x^4 + 3x - 1$ په دې حالت کې د نجار د تابع کلي مشتق پیداکړئ!

٥- د $z = e^{4x2+3y2}$ تابع کلي مشتق پیداکړئ که چېرې $x=8y^4$ وي.

٦- د $z = 8x^3 + 12xy - 6y^3$ تابع کلي مشتق پیداکړئ، که چېرې $x = 2t^{\frac{1}{2}}, y = 4t^2$ وي.

(c) ketabton.com: The Digital Library

سرچینې او اخیستنې:

۱- ریاضی عمومی موءلف داکتر غوری سال ۱۳۸۶
۲- ریاضیات عمومی سردار محمد ۲۰۰۶ میلادی
۳- لکچر نوت های پوهاند اقتصاد سال های ۱۳۷۷ و ۱۳۷۶
۴- ریاضیات عالی موءلف پوهنوال دکتور محمد (نور غوری) و زا کتاب های صنوف ۱۱ و ۱۲ مکاتب نیز استفاده شده است.

(c) ketabton.com: The Digital Library

د ښوونیز نصاب د پراختیا د ریاست پیغام

د پوهنې وزارت د تخنیکي او مسلکي زده کړو معینیت دښوونیز نصاب د انکشاف ریاست د ټولنې دعیني او ښکاره ضرورت په درک کولو سره چې د محصلینو او شاګردانو د درسي کتابونو په برخه کې یې تخنیکي او مسلکي رشتې درلودې او لري یې، په لومړي سرکې یې تصمیم ونیو، چې په ښوونیزو پلانونو او درسي مفرداتو باندې بیاکتنه وکړي او ورپسې بیا د شاګردانو او محصلینو د درسي کتابونو د تالیف لپاره مبادرت او کوښښ وکړي. د خدای(ج) په فضل او مرحمت سره او د ادارې او حسابداری ځانګې د ښوونکو په میړانې او همت سره د ادارې او حسابداری درسي کتابونه تالیف شول تر څو په وړیا ډول د شاګردانو او محصلینو په واک او اختیار کې ورکړل شي.

د علم او معرفت له ټولو لوستونکو، علاقمندانو، د ادارې او حسابداری د مکاتبو له ښوونکو، ګرانو شاګردانو او د تخنیکي او مسلکي زده کړو د چارو له متخصصینو او همدا شان له ټولو څېړونکو او شنونکو څخه صمیمانه هیله کیږي، چې د دې کتابونو په مطالعې سره چې په لومړي ځل د ښوونکو او د ادارې او حسابداری ځانګې د مسلکي غړو له لوري تالیف او تدوین شوي دي. د مسلکي، تخنیکي او علمي مطالبو او مفاهیمو د څرنګوالي په هکله خصوصاً د هغوی املایي او انشایي اشتباهاتو په اړهمونږ ته لارښوونه وکړي، ترڅو په راتلونکي کې وکړای شو، په همدې او نورو برخوکې ګرانو شاګردانو ته له دې څخه ښه، غوره، ګټور او ارزښتناکه موضوعات وړاندې کړو.

همدا شان له ګرانو شاګردانو او محصلینو څخه هیله کوو ترڅو د دې کتابونو د مطالعې او استفادې پر مهال د هیواد اقتصادي ستونزې، فقر او وروسته پاتې والی په نظرکې ونیسي او د کتابونو په ساتنه کې کوښښ او زیار وباسي، ترڅو د ډېرو شاګردانو او محصلینو د ګټې وړ وګرځي.

پته: دپوهنې وزارت – دتخنیکي او مسلکي زده کړو معینیت د تعلیمي نصاب د انکشاف ریاست – دکتابونو د تالیف او د درسي ممدو موادو د برابرولو عمومي مدیریت.

Get more e-books from www.ketabton.com
Ketabton.com: The Digital Library